Combined Graduate Level Examination 2024 Tier II

Roll Number	
Candidate Name	
Venue Name	iON Digital Zone iDZ Naino Ka Bas
Exam Date	20/01/2025
Exam Time	9:00 AM - 12:00 PM
Subject	CGLE 2024 Tier II Paper I

Section : **Module I Mathematical Abilities**

Q.1 **38211, 38121, 32118 और 31128 में से कौन-सी संख्या 24 से विभाज्य है?**

Ans
✔ 1. 31128
2. 38211
3. 38121
4. 32118

Question ID : **630680650350**
Option 1 ID : **6306802546406**
Option 2 ID : **6306802546403**
Option 3 ID : **6306802546404**
Option 4 ID : **6306802546405**
Status : **Answered**
Chosen Option : **1**

Q.2 **O केंद्र वाले वृत्त में, चाप ABC वृत्त के केंद्र पर 134° का कोण अंतरित करती है। जीवा AB को बिंदु P तक बढ़ाया जाता है। ∠CBP _____ के बराबर होगा।**

Ans
1. 113°
2. 45°
3. 89°
✔ 4. 67°

Question ID : **630680671357**
Option 1 ID : **6306802628981**
Option 2 ID : **6306802628984**
Option 3 ID : **6306802628982**
Option 4 ID : **6306802628983**
Status : **Answered**
Chosen Option : **1**

Q.3 यदि और है, तो का मान क्या है?

Ans
1. 42
2. 44
3. 51
4. 43

Question ID : **630680677632**
Option 1 ID : **6306802653986**
Option 2 ID : **6306802653983**
Option 3 ID : **6306802653984**
Option 4 ID : **6306802653985**
Status : **Answered**
Chosen Option : **2**

Q.4 $ABCD$, एक चतुर्भुज है, जिसमें विकर्ण $BD = 70\ cm$ है, $AL \perp BD$ और $CM \perp BD$ इस प्रकार हैं कि $AL = 18\ cm$ और $CM = 20$ है। चतुर्भुज $ABCD$ का क्षेत्रफल (cm^2 में) ज्ञात कीजिए।

Ans
1. 1300
2. 1310
3. 1330
4. 1320

Question ID : **630680533606**
Option 1 ID : **6306802085897**
Option 2 ID : **6306802085898**
Option 3 ID : **6306802085900**
Option 4 ID : **6306802085899**
Status : **Answered**
Chosen Option : **3**

Q.5 $\frac{(a^5 \times b^3 \times c^7)}{(a^4 \times b^8 \times c^9)}$ का सरलीकृत रूप ज्ञात कीजिए।

Ans
1. $(a^{-1}) \times (b^4) \times (c^{-5})$
2. $(a^6) \times (b^6) \times (c^{-4})$
3. $(a^{-3}) \times (b^{-10}) \times (c^{-4})$
4. $(a^1) \times (b^{-5}) \times (c^{-2})$

Question ID : **630680677918**
Option 1 ID : **6306802655130**
Option 2 ID : **6306802655129**
Option 3 ID : **6306802655128**
Option 4 ID : **6306802655127**
Status : **Answered**
Chosen Option : **4**

Q.6 ज्ञात है कि PQR एक समकोण त्रिभुज है, जो R पर समकोण है। मान लीजिए PQ = 29 cm, QR = 21 cm और ∠Q = θ है। $\cos^2\theta - \sin^2\theta$ का मान ज्ञात कीजिए।

Ans

1.

2. $\frac{841}{41}$

✔ 3. $\frac{41}{841}$

4. $\frac{840}{40}$

Question ID : **630680526625**
Option 1 ID : **6306802058567**
Option 2 ID : **6306802058569**
Option 3 ID : **6306802058568**
Option 4 ID : **6306802058566**
Status : **Answered**
Chosen Option : **3**

Q.7 प्रथम 92 सम संख्याओं का औसत कितना है?

Ans ✔ 1. 93

2. 91

3. 92

4. 94

Question ID : **630680657227**
Option 1 ID : **6306802572850**
Option 2 ID : **6306802572852**
Option 3 ID : **6306802572851**
Option 4 ID : **6306802572853**
Status : **Answered**
Chosen Option : **1**

Q.8 दो वर्ष पूर्व, एक कस्बे की जनसंख्या 9487500 थी। बड़े शहरों में प्रवास के कारण यह प्रतिवर्ष 8% की दर से घटती जाती है। कस्बे की वर्तमान जनसंख्या क्या होगी?

Ans 1. 8070120

✔ 2. 8030220

3. 9060110

4. 7060320

Question ID : **630680464564**
Option 1 ID : **6306801814293**
Option 2 ID : **6306801814291**
Option 3 ID : **6306801814292**
Option 4 ID : **6306801814294**
Status : **Answered**
Chosen Option : **2**

Q.9 P और Q एक 400 m की दौड़ में भाग लेते हैं। P, 12 km/h की चाल से दौड़ता है। P, Q को 20 m की बढ़त देता है और फिर भी उसे 13 सेकंड से हरा देता है। Q की चाल क्या है? (दो दशमलव स्थानों तक पूर्णांकित कीजिए।)

Ans
1. 11.61 km/hr
2. 10.87 km/hr
3. 11.38 km/hr
✔ 4. 10.29 km/hr

Question ID : **630680528052**
Option 1 ID : **6306802064236**
Option 2 ID : **6306802064234**
Option 3 ID : **6306802064235**
Option 4 ID : **6306802064233**
Status : **Answered**
Chosen Option : **4**

Q.10 अक्षय ने 21 cm व्यास की तीन समरूप अंगूठियाँ इस प्रकार रखीं कि हर अंगूठी अन्य दो अंगूठियों को छूती है। उसने देखा कि वृत्तों से घिरा हुआ एक स्थान है। इस स्थान का क्षेत्रफल (cm^2 में) क्या होगा? ($\pi = \frac{22}{7}$ लें)

नोट - दशमलव के बाद निकटतम दो स्थानों तक पूर्णांकित करें और $\sqrt{3} = 1.732$

Ans
✔ 1. 17.70
2. 18.25
3. 20.65
4. 24.12

Question ID : **630680407097**
Option 1 ID : **6306801587331**
Option 2 ID : **6306801587330**
Option 3 ID : **6306801587332**
Option 4 ID : **6306801587333**
Status : **Answered**
Chosen Option : **1**

Q.11 कुछ छात्रों की आयु वर्षों में 12, 13, 16, 18,14, 19, 13, 17, 15 और 11 के रूप में दी गई है। छात्रों की माध्यक आयु (वर्ष में) कितनी है?

Ans
1. 14
2. 15
3. 13.5
✔ 4. 14.5

Question ID : **630680543949**
Option 1 ID : **6306802126584**
Option 2 ID : **6306802126585**
Option 3 ID : **6306802126583**
Option 4 ID : **6306802126586**
Status : **Answered**
Chosen Option : **4**

Q.12 यदि किसी शंकु का आधार-व्यास 56 cm है और इसका वक्र पृष्ठीय क्षेत्रफल 3080 cm^2 है, तो इसका आयतन (cm^3 में) कितना होगा? ($\pi = 22/7$ का उपयोग कीजिए)

Ans

1. 17248
2. 14670
3. 12250
4. 15391

Question ID : **630680671154**
Option 1 ID : **6306802628180**
Option 2 ID : **6306802628178**
Option 3 ID : **6306802628177**
Option 4 ID : **6306802628179**
Status : **Answered**
Chosen Option : **1**

Q.13 $(5z - 7y)^2 + (7z + 5y)^2 - 49z^2$ को सरल कीजिए।

Ans

1. $30z^2 + 83y^2$
2. $25z^2 + 74y^2$
3. $35z^2 + 70y^2$
4. $26z^2 + 82y^2$

Question ID : **630680674735**
Option 1 ID : **6306802642387**
Option 2 ID : **6306802642385**
Option 3 ID : **6306802642388**
Option 4 ID : **6306802642386**
Status : **Answered**
Chosen Option : **2**

Q.14 केंद्र O वाले एक वृत्त में, एक व्यास AB को वृत्त के बाहर बिंदु C तक बढ़ाया गया है। वृत्त के बिंदु D पर CD एक स्पर्शरेखा है। यदि CD = $7\sqrt{3}$ cm और $\angle DBC = 120°$ है, तो वृत्त के व्यास की लंबाई बताइए।

Ans

1. 18 cm
2. 20 cm
3. 16 cm
4. 14 cm

Question ID : **630680395271**
Option 1 ID : **6306801541294**
Option 2 ID : **6306801541295**
Option 3 ID : **6306801541293**
Option 4 ID : **6306801541292**
Status : **Answered**
Chosen Option : **4**

Q.15 2^3x 9^2x 13, 2^2x13^2x 19 और 9^3x 13^2x 19^2 का एल.सी.एम.(LCM) क्या है?

Ans
1.
2.
✔ 3. $2^3 \times 9^3 \times 13^2 \times 19^2$
4. $2^2 \times 9^2 \times 13^2 \times 19^3$

Question ID : **630680677308**
Option 1 ID : **6306802652689**
Option 2 ID : **6306802652688**
Option 3 ID : **6306802652687**
Option 4 ID : **6306802652690**
Status : **Answered**
Chosen Option : **3**

Q.16 51 रुपए प्रति किलोग्राम मूल्य वाले 8 किलोग्राम मक्के को 68 रुपए प्रति किलोग्राम मूल्य वाले 9 किलोग्राम मक्के के साथ मिलाया जाता है। मिश्रित मक्के का प्रति किलोग्राम औसत मूल्य कितना है?

Ans
1. ₹61
✔ 2. ₹60
3. ₹59
4. ₹58

Question ID : **630680669017**
Option 1 ID : **6306802619575**
Option 2 ID : **6306802619574**
Option 3 ID : **6306802619573**
Option 4 ID : **6306802619576**
Status : **Answered**
Chosen Option : **2**

Q.17 दो मित्रों की आयु का अनुपात 4 : 3 है जो 4 वर्ष बाद 6 : 5 हो जायेगा। अब से 22 वर्ष बाद उनकी आयु का योग (वर्ष में) कितना होगा?

Ans
1. 50
2. 52
3. 56
✔ 4. 58

Question ID : **630680641023**
Option 1 ID : **6306802509504**
Option 2 ID : **6306802509505**
Option 3 ID : **6306802509506**
Option 4 ID : **6306802509507**
Status : **Answered**
Chosen Option : **4**

Q.18 एक किराने की दुकान का मालिक, मुरलीधर अपने ग्राहकों को एक छूट स्कीम '5 पानी की बोतलें खरीदें और 1 बोतल मुफ्त पाएँ' प्रदान करता है। मुरलीधर द्वारा दी गई प्रभावी प्रतिशत छूट कितनी है? (दो दशमलव स्थानों तक मान दीजिए)

Ans
1. 13.67%
2. 13.33%
3. 20.00%
✔ 4. 16.67%

Question ID : **630680653718**
Option 1 ID : **6306802559287**
Option 2 ID : **6306802559286**
Option 3 ID : **6306802559289**
Option 4 ID : **6306802559288**
Status : **Answered**
Chosen Option : **4**

Q.19 निम्नलिखित आँकड़ों की माध्यिका ज्ञात कीजिए।

वर्ग अंतराल 0 – 20 20 – 40 40 – 60 60 – 80 80 - 100
बारंबारता 9 16 24 15 4

Ans
1. 58
2. 50
✔ 3. 47.5
4. 55

Question ID : **630680531337**
Option 1 ID : **6306802077160**
Option 2 ID : **6306802077157**
Option 3 ID : **6306802077159**
Option 4 ID : **6306802077158**
Status : **Answered**
Chosen Option : **3**

Q.20 If A and B are two events such that $P(A \cup B) = \frac{3}{4}$, $P(A \cap$

Ans
✔ 1. Independent
2. Mutually Exclusive
3. Not Mutually Exclusive
4. Dependent

Question ID : **630680531511**
Option 1 ID : **6306802077837**
Option 2 ID : **6306802077839**
Option 3 ID : **6306802077840**
Option 4 ID : **6306802077838**
Status : **Not Answered**
Chosen Option : **--**

Q.21 एक आदमी ₹680 में एक मोबाइल फोन बेचता है और कुछ हानि उठाता है। यदि उसने इसे ₹1070 में बेचा होता, तो उसका लाभ, पूर्व की हानि का दोगुना होता। मोबाइल फोन का लागत मूल्य (₹ में) ज्ञात कीजिए।

Ans
1. 830
2. 800
3. 820
✔ 4. 810

Question ID : **630680633558**
Option 1 ID : **6306802480131**
Option 2 ID : **6306802480130**
Option 3 ID : **6306802480129**
Option 4 ID : **6306802480128**
Status : **Answered**
Chosen Option : **4**

Q.22 अमित को पहले वर्ष में अपनी बिक्री राशि में 6% और दूसरे वर्ष में 20% की वृद्धि प्राप्त होती है, यदि उसकी वर्तमान बिक्री ₹254400 है, तो दो वर्ष पहले उसकी बिक्री (₹ में) कितनी थी?

Ans
✔ 1. 200000
2. 240000
3. 180000
4. 212000

Question ID : **630680667634**
Option 1 ID : **6306802614096**
Option 2 ID : **6306802614098**
Option 3 ID : **6306802614099**
Option 4 ID : **6306802614097**
Status : **Answered**
Chosen Option : **1**

Q.23 यदि $\cos 27^\circ = \frac{p}{q}$ है, तो $\text{cosec}\,27^\circ - \cos 63^\circ$ का मान ज्ञात कीजिए।

Ans
✔ 1. $\frac{p^2}{q\sqrt{q^2-p^2}}$
2. $\frac{p}{q\sqrt{q^2-p^2}}$
3. $\frac{q^2}{p\sqrt{q^2-p^2}}$
4. $\frac{q}{p\sqrt{q^2-p^2}}$

Question ID : **630680764496**
Option 1 ID : **6306802996522**
Option 2 ID : **6306802996525**
Option 3 ID : **6306802996523**
Option 4 ID : **6306802996524**
Status : **Answered**
Chosen Option : **1**

Q.24 एक आयताकार पार्क की लंबाई और चौड़ाई के बीच का अनुपात 3 : 2 है और पार्क का परिमाप 120 m है। पार्क का क्षेत्रफल (m^2 में) ज्ञात कीजिए।

Ans
1. 968
2. 864
3. 144
4. 454

Question ID : **630680590901**
Option 1 ID : **6306802312074**
Option 2 ID : **6306802312073**
Option 3 ID : **6306802312071**
Option 4 ID : **6306802312072**
Status : **Answered**
Chosen Option : **2**

Q.25 एक टैंक जब पूरा भर जाता है तो आउटलेट पाइप A द्वारा 5.6 घंटे में खाली किया जा सकता है, जबकि एक इनलेट पाइप B उसी खाली टैंक को 7 घंटे में भर सकता है। यदि टैंक के भरे होने पर पाइप A से शुरू करके पाइप A और B में से प्रत्येक को 1 घंटे के लिए एकान्तर रूप से चालू किया जाता है तो टैंक को खाली करने में कितना समय लगेगा?

Ans
1. 48 घंटे
2. 56 घंटे
3. 55 घंटे
✔ 4. 47 घंटे

Question ID : **630680262157**
Option 1 ID : **6306801018278**
Option 2 ID : **6306801018275**
Option 3 ID : **6306801018276**
Option 4 ID : **6306801018277**
Status : **Answered**
Chosen Option : **2**

Q.26 आदि और दीया के पास कुल मिलाकर ₹1,440 हैं। यदि आदि की राशि का $\frac{3}{10}$ भाग, दीया की राशि के $\frac{3}{5}$ भाग के बराबर है, तो दीया के पास कितनी राशि है?

Ans
✔ 1. ₹480
2. ₹464
3. ₹512
4. ₹540

Question ID : **630680543918**
Option 1 ID : **6306802126460**
Option 2 ID : **6306802126459**
Option 3 ID : **6306802126461**
Option 4 ID : **6306802126462**
Status : **Answered**
Chosen Option : **1**

Q.27 ₹2000 पर, 6.5% वार्षिक ब्याज दर पर, 13 फरवरी 2023 से 27 अप्रैल 2023 की अवधि के लिए साधारण ब्याज (₹ में) की गणना करें।

Ans
1. 25
2. 26
3. 24
4. 27

Question ID : **630680666475**
Option 1 ID : **6306802609461**
Option 2 ID : **6306802609460**
Option 3 ID : **6306802609463**
Option 4 ID : **6306802609462**
Status : **Answered**
Chosen Option : **2**

Q.28 स्वीटा और सुमन की वर्तमान आयु 4 : 5 के अनुपात में है। छः वर्ष पहले, उनकी आयु का अनुपात 2 : 3 था। स्वीटा की वर्तमान आयु क्या है?

Ans
1. 8 वर्ष
2. 20 वर्ष
✔ 3. 12 वर्ष
4. 16 वर्ष

Question ID : **630680533803**
Option 1 ID : **6306802086687**
Option 2 ID : **6306802086689**
Option 3 ID : **6306802086688**
Option 4 ID : **6306802086690**
Status : **Answered**
Chosen Option : **3**

Q.29 यदि **a : b = 2 : 3, b : c = 5 : 7** है, तो **c : a** का अनुपात ज्ञात कीजिए।

Ans
1. 10 : 21
2. 15 : 21
✔ 3. 21 : 10
4. 20 : 21

Question ID : **630680631026**
Option 1 ID : **6306802470052**
Option 2 ID : **6306802470053**
Option 3 ID : **6306802470055**
Option 4 ID : **6306802470054**
Status : **Answered**
Chosen Option : **3**

Q.30 यदि है, तो का मान ज्ञात कीजिए।

Ans
1.
2. $\frac{14}{255}$
3. $\frac{12}{255}$
4. $\frac{11}{255}$

Question ID : **630680674270**
Option 1 ID : **6306802640601**
Option 2 ID : **6306802640602**
Option 3 ID : **6306802640600**
Option 4 ID : **6306802640599**
Status : **Answered**
Chosen Option : **2**

Section : **Module II Reasoning and General Intelligence**

Q.1 निम्नलिखित चार युग्मों में से तीन किसी निश्चित तरीके से एकसमान हैं और इस प्रकार एक समूह बनाते हैं। वह कौन-सा युग्म है, जो उस समूह से संबंधित नहीं है?

Ans
1. ₹¥$£ - मुद्रा
2. ABCD - अक्षर
3. 1234 - संख्या
4. ×+−÷ - टेक्स्ट

Question ID : **630680510706**
Option 1 ID : **6306801995957**
Option 2 ID : **6306801995955**
Option 3 ID : **6306801995954**
Option 4 ID : **6306801995956**
Status : **Answered**
Chosen Option : **4**

Q.2 एक प्रश्न के बाद, (I) और (II) से क्रमांकित दो कथन दिए गए हैं। आपको यह तय करना है कि कथनों में दिया गया डेटा प्रश्न का उत्तर देने के लिए पर्याप्त है या नहीं। दोनों कथनों को पढ़िए और उचित विकल्प चुनिए।
प्रश्न:
शौर्य ने पहले भारी पार्सलों की डिलीवरी को प्राथमिकता देते हुए पांच स्थानों A, B, C, D और E पर पार्सल डिलिवर किए। अंत में किस स्थान पर डिलीवरी की गई?
कथन:
(I) स्थान C का पार्सल अन्य सभी पार्सलों से भारी था।
(II) स्थान D का पार्सल, स्थान B और A के पार्सलों से हल्का था।

Ans
1. कथन (I) और (II) में दिए गए डेटा एक साथ प्रश्न का उत्तर देने के लिए पर्याप्त हैं।
2. कथन (I) में दिया गया डेटा अकेले प्रश्न का उत्तर देने के लिए पर्याप्त है, जबकि कथन (II) में दिया गया डेटा अकेले पर्याप्त नहीं है।
3. कथन (I) और (II) में दिए गए डेटा एक साथ प्रश्न का उत्तर देने के लिए पर्याप्त नहीं हैं।
4. कथन (II) में दिया गया डेटा अकेले प्रश्न का उत्तर देने के लिए पर्याप्त है, जबकि कथन (I) में दिया गया डेटा अकेले पर्याप्त नहीं है।

Question ID : **630680560993**
Option 1 ID : **6306802192979**
Option 2 ID : **6306802192977**
Option 3 ID : **6306802192980**
Option 4 ID : **6306802192978**
Status : **Answered**
Chosen Option : **1**

Q.3 एक निश्चित कूट भाषा में,
P + Q का अर्थ है कि 'P, Q की माता है',
P – Q का अर्थ है कि 'P, Q का भाई है',
P x Q का अर्थ है कि 'P, Q की पत्नी है' और
P ÷ Q का अर्थ है कि 'P, Q का पिता है'।
उक्त के आधार पर, यदि 'U – V + W ÷ Y x Z' है, तो U का Z से क्या संबंध है?

Ans
1. पत्नी की माता के नाना
2. पत्नी के पिता के नाना
3. पत्नी की माता के मामा
✔ 4. पत्नी के पिता के मामा

Question ID : **630680681067**
Option 1 ID : **6306802667484**
Option 2 ID : **6306802667482**
Option 3 ID : **6306802667483**
Option 4 ID : **6306802667481**
Status : **Answered**
Chosen Option : **4**

Q.4 एक निश्चित कूट भाषा में 'CURB' को '3517' के रूप में कूटबद्ध किया जाता है और 'BOAT' को '4638' के रूप में कूटबद्ध किया जाता है। दी गई कूट भाषा में 'B' के लिए कूट क्या है?

Ans
1. 4
2. 8
3. 7
✔ 4. 3

Question ID : **630680681052**
Option 1 ID : **6306802667422**
Option 2 ID : **6306802667424**
Option 3 ID : **6306802667423**
Option 4 ID : **6306802667421**
Status : **Answered**
Chosen Option : **4**

Q.5 आकृति A एक निश्चित पैटर्न में B से संबंधित है। उसी पैटर्न का अनुसरण करते हुए, आकृति C, D से संबंधित है। पैटर्न का अध्ययन कीजिए और उस आकृति का चयन कीजिए जिसे D के स्थान पर रखा जाना चाहिए।

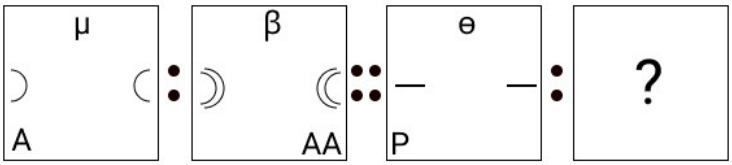

A B C D

Ans

1. 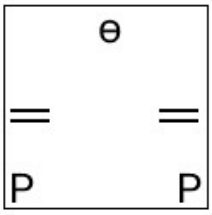

2. 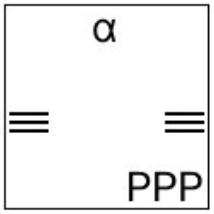

✔ 3. 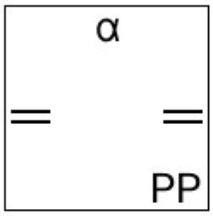

4. 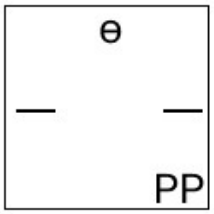

Question ID : **630680531597**
Option 1 ID : **6306802078188**
Option 2 ID : **6306802078187**
Option 3 ID : **6306802078185**
Option 4 ID : **6306802078186**
Status : **Answered**
Chosen Option : **4**

Q.6 उस सही विकल्प का चयन कीजिए, जो निम्नलिखित शब्दों की व्यवस्था को तार्किक और सार्थक क्रम में दर्शाता है।

1. लक्ष्य निर्धारित करना (Set goals) 2. बजट (Budget) 3. समीक्षा (Review) 4. निवेश (Invest) 5. आकलन (Assess)

Ans

1. 5, 2, 4, 3, 1
2. 1, 5, 2, 4, 3 ✔
3. 5, 1, 2, 3, 4
4. 3, 5, 1, 2, 4

Question ID : **630680523400**
Option 1 ID : **6306802045779**
Option 2 ID : **6306802045778**
Option 3 ID : **6306802045781**
Option 4 ID : **6306802045780**
Status : **Answered**
Chosen Option : **3**

Q.7 जब दर्पण को नीचे दर्शाए अनुसार रेखा MN पर रखा जाए, तो दिए गए संयोजन के सही दर्पण प्रतिबिंब का चयन कीजिए।

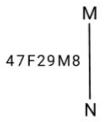

Ans

1. 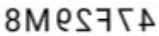 ✔
2. 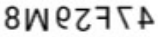
3.
4. 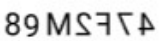

Question ID : **630680619808**
Option 1 ID : **6306802425367**
Option 2 ID : **6306802425366**
Option 3 ID : **6306802425368**
Option 4 ID : **6306802425365**
Status : **Answered**
Chosen Option : **1**

Q.8 एक प्रश्न दिया गया है, जिसके बाद I और II चिह्नांकित कर दो कथन दिए गए हैं। पहचान कीजिए कि कौन-सा/से कथन इस प्रश्न का उत्तर देने के लिए पर्याप्त है/हैं।

प्रश्न:
पाँच अलग-अलग रंगों (नीला, हरा, पीला, लाल और बैंगनी) के पाँच घर, प्रत्येक दो आसन्न घरों के बीच समान जगह के साथ, उत्तरमुखी एक पंक्ति में बनाए गए हैं। कौन-से रंग का घर पंक्ति के बिल्कुल मध्य में है?

कथन:
(I) हरे और पीले रंग के घर पंक्ति के अंतिम छोर पर बनाए गए हैं।
(II) बैंगनी और नीले रंग के घर क्रमशः हरे और पीले रंग के घरों के ठीक पड़ोस वाले घर हैं।

Ans
1. केवल कथन II में दिया गया डेटा ही प्रश्न का उत्तर देने के लिए पर्याप्त है, जबकि कथन I में दिया गया डेटा अकेले प्रश्न का उत्तर देने के लिए पर्याप्त नहीं है
2. कथन I में दिया गया डेटा अकेले प्रश्न का उत्तर देने के लिए पर्याप्त है, जबकि कथन II में दिया गया डेटा अकेले प्रश्न का उत्तर देने के लिए पर्याप्त नहीं है
3. कथन I और II में दिया गया डेटा एक साथ प्रश्न का उत्तर देने के लिए पर्याप्त नहीं है
✔ 4. कथन I और II में दिया गया डेटा एक साथ प्रश्न का उत्तर देने के लिए पर्याप्त है

Question ID : **630680560981**
Option 1 ID : **6306802192930**
Option 2 ID : **6306802192929**
Option 3 ID : **6306802192932**
Option 4 ID : **6306802192931**
Status : **Answered**
Chosen Option : **4**

Q.9 M, N, O, X, Y और Z एक वृत्ताकार मेज के चारों ओर केंद्र की ओर मुख करके बैठे हैं। O, Y का निकटतम पड़ोसी है। Z, O के दाएं से दूसरे स्थान पर बैठा है। X, M और N दोनों का निकटतम पड़ोसी है। M, O का निकटतम पड़ोसी नहीं है। Y के ठीक बाएं कौन बैठा है?

Ans
1. N
✔ 2. O
3. X
4. M

Question ID : **630680416780**
Option 1 ID : **6306801625884**
Option 2 ID : **6306801625885**
Option 3 ID : **6306801625886**
Option 4 ID : **6306801625883**
Status : **Answered**
Chosen Option : **2**

Q.10

Ans

1.
2. 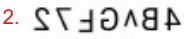
3. 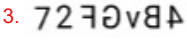
4. 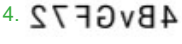

Question ID : **630680619813**
Option 1 ID : **6306802425385**
Option 2 ID : **6306802425388**
Option 3 ID : **6306802425386**
Option 4 ID : **6306802425387**
Status : **Answered**
Chosen Option : **4**

Q.11 चार संख्या-युग्म दिए गए हैं, जिनमें से तीन किसी प्रकार से एकसमान हैं और एक असंगत है। उस असंगत संख्या-युग्म का चयन कीजिए।
(नोट: संख्याओं को उनके घटक अंकों में तोड़े बिना, पूर्ण संख्याओं पर संक्रिया की जानी चाहिए। उदाहरण के लिए 13 को लें - 13 पर की जाने वाली संक्रियाएँ जैसे जोड़ना / घटाना / गुणा करना आदि केवल 13 पर की जा सकती हैं। 13 को 1 और 3 में तोड़ना और फिर 1 और 3 पर गणितीय संक्रियाएँ करना अनुमन्य नहीं है।)

Ans

1. 494 - 19
2. 521 - 20 ✔
3. 286 - 11
4. 104 - 4

Question ID : **630680162457**
Option 1 ID : **630680629124**
Option 2 ID : **630680629127**
Option 3 ID : **630680629126**
Option 4 ID : **630680629125**
Status : **Answered**
Chosen Option : **2**

Q.12 एक निश्चित कूट भाषा में,
A + B का अर्थ है कि 'A, B की माता है',
A – B का अर्थ है कि 'A, B का भाई है',
A x B का अर्थ है कि 'A, B की पत्नी है' और
A ÷ B का अर्थ है कि 'A, B का पिता है'।
उक्त के आधार पर, यदि 'U – V x W ÷ Y + Z' है, तो U का Z से क्या संबंध है?

Ans

1. नानी के पिता
2. नाना का भाई
3. नाना के पिता
4. नानी का भाई ✔

Question ID : **630680681073**
Option 1 ID : **6306802667506**
Option 2 ID : **6306802667507**
Option 3 ID : **6306802667508**
Option 4 ID : **6306802667505**
Status : **Answered**
Chosen Option : **4**

Q.13 किसी परीक्षा में सात व्यक्तियों A, B, C, D, E, F और G ने अलग-अलग अंक (100 में से) प्राप्त किए। G ने सबसे कम अंक प्राप्त किए। B ने दूसरे उच्चतम अंक प्राप्त किए, जो 80 थे। A ने 72 अंक प्राप्त किए। E ने F से अधिक, लेकिन C से कम अंक प्राप्त किए। C द्वारा प्राप्त किए गए अंक 11 के गुणज और 70 से कम थे। C और F द्वारा प्राप्त अंकों का योग 120 था। F द्वारा प्राप्त अंक क्या हैं?

Ans
1. 50
2. 56
3. 55
✔ 4. 54

Question ID : **630680416338**
Option 1 ID : **6306801624115**
Option 2 ID : **6306801624118**
Option 3 ID : **6306801624116**
Option 4 ID : **6306801624117**
Status : **Answered**
Chosen Option : **4**

Q.14 निम्नलिखित में से किस अक्षर-समूह द्वारा # और % को प्रतिस्थापित किया जाना चाहिए ताकि :: के बाईं ओर के अक्षर-समूह युग्म के बीच का पैटर्न और संबंध, :: के दाईं ओर के अक्षर-समूह युग्म के पैटर्न और संबंध के समान हो?

 # : ORW :: RUZ : %

Ans
✔ 1. # = VYD % = KNS
2. # = VYD % = LNS
3. # = VYD % = KNK
4. # = UYD % = KNS

Question ID : **630680731373**
Option 1 ID : **6306802866185**
Option 2 ID : **6306802866187**
Option 3 ID : **6306802866184**
Option 4 ID : **6306802866186**
Status : **Answered**
Chosen Option : **1**

Q.15 दिए गए विकल्पों में से उस संख्या का चयन कीजिए, जो निम्नलिखित शृंखला में प्रश्न-चिह्न (?) को प्रतिस्थापित कर सकती है।
98, 50, 26, 14, ?, 5

Ans
1. 8
2. 6
3. 7
4. 10

Question ID : **630680172611**
Option 1 ID : **630680668864**
Option 2 ID : **630680668866**
Option 3 ID : **630680668865**
Option 4 ID : **630680668867**
Status : **Answered**
Chosen Option : **1**

Q.16 उस विकल्प आकृति का चयन कीजिए, जिसमें दी गई आकृति उसके भाग के रूप में अंतर्निहित है। (घूर्णन की अनुमति नहीं है।)

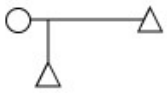

Ans

1. 

2. 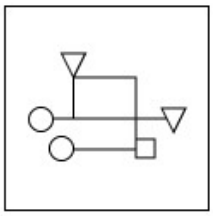

3. 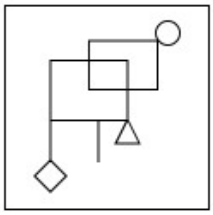

✔ 4. 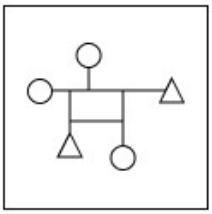

Question ID : **630680629189**
Option 1 ID : **6306802462840**
Option 2 ID : **6306802462839**
Option 3 ID : **6306802462841**
Option 4 ID : **6306802462838**
Status : **Answered**
Chosen Option : **4**

Q.17 उस विकल्प आकृति का चयन कीजिए जो नीचे दिए गए चित्र में पैटर्न को पूर्ण करने के लिए प्रश्न-चिह्न (?) को प्रतिस्थापित करेगी।

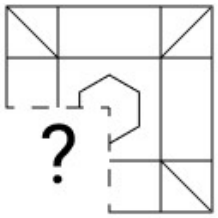

Ans

✔ 1. 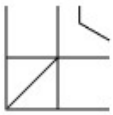

2.

3. 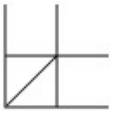

4.

Question ID : **630680684120**
Option 1 ID : **6306802679241**
Option 2 ID : **6306802679240**
Option 3 ID : **6306802679238**
Option 4 ID : **6306802679239**
Status : **Answered**
Chosen Option : **1**

Q.18 यदि '+' और '−' को परस्पर बदल दिया जाए तथा '×' और '÷' को परस्पर बदल दिया जाए तो निम्नलिखित समीकरण में प्र -चिह्न (?) के स्थान पर क्या आएगा?

98 ÷ 7 + 288 × 2 − 144 × 3 − 152 ÷ 2 + 120 = ?

Ans

1. 743

2. 632

3. 671

✔ 4. 774

Question ID : **6306801081307**
Option 1 ID : **6306804246805**
Option 2 ID : **6306804246803**
Option 3 ID : **6306804246804**
Option 4 ID : **6306804246806**
Status : **Answered**
Chosen Option : **4**

Q.19 **इस प्रश्न में, एक कथन के बाद I और II क्रमांकित दो कार्रवाईयाँ दी गई हैं। आपको कथन में दी गई सभी जानकारी को सत्य मानना होगा और कथन में दी गई जानकारी के आधार पर निर्णय लेना होगा कि तार्किक रूप से कौन-सी कार्रवाई/कार्रवाईयों का अनुसरण किया जाना चाहिए।**
कथन: कई लोगों ने अपने आयकर रिटर्न के रिफंड मिलने में देरी के संबंध में वित्त मंत्रालय से शिकायत की है।

कार्रवाई :
वित्त मंत्रालय को आयकर रिफंड में देरी के संबंध में प्राप्त शिकायतों की जाँच करानी चाहिए।
वित्त मंत्रालय को देरी की अवधि के लिए आयकर दाताओं को उनके रिफंड पर ब्याज का भुगतान करके मुआवजा देना चाहिए।

Ans
1. केवल I का अनुसरण किया जाना चाहिए।
2. केवल II का अनुसरण किया जाना चाहिए।
✔ 3. I और II दोनों का अनुसरण किया जाना चाहिए।
4. न तो I और न ही II का अनुसरण किया जाना चाहिए।

Question ID : **630680568512**
Option 1 ID : **6306802222865**
Option 2 ID : **6306802222866**
Option 3 ID : **6306802222868**
Option 4 ID : **6306802222867**
Status : **Answered**
Chosen Option : **3**

Q.20 **दिए गए कथनों और निष्कर्षों को ध्यानपूर्वक पढ़ें। यह मानते हुए कि कथनों में दी गई जानकारी सत्य है, भले ही यह सामान्यतः ज्ञात तथ्यों से भिन्न प्रतीत होती हो, निर्णय लें कि दिए गए निष्कर्षों में से कौन-सा/से निष्कर्ष कथनों का तार्किक रूप से अनुसरण करता है/करते हैं।**

कथन:
सभी गुड़िया, रोबोट हैं।
कुछ रोबोट, खिलौने हैं।
कुछ खिलौने, साइकिल हैं।

निष्कर्ष:
(I) कुछ खिलौने, गुड़िया हैं।
(II) कोई साइकिल, रोबोट नहीं है।

Ans
1. निष्कर्ष (I) और (II) दोनों सत्य हैं।
2. केवल निष्कर्ष (II) सत्य है।
3. केवल निष्कर्ष (I) सत्य है।
✔ 4. न तो निष्कर्ष (I) और न ही (II) सत्य है।

Question ID : **630680625021**
Option 1 ID : **6306802446248**
Option 2 ID : **6306802446246**
Option 3 ID : **6306802446245**
Option 4 ID : **6306802446247**
Status : **Answered**
Chosen Option : **4**

Q.21 संख्या 3571869 में प्रत्येक अंक को बाएँ से दाएँ आरोही क्रम में व्यवस्थित किया जाता है। कितने अंकों का स्थान, मूल संख्या में अंकों के स्थानों की तुलना में अपरिवर्तित रहेगा?

Ans
1. दो
2. तीन
3. किसी का भी नहीं
✔ 4. एक

Question ID : **630680674149**
Option 1 ID : **6306802640125**
Option 2 ID : **6306802640126**
Option 3 ID : **6306802640123**
Option 4 ID : **6306802640124**
Status : **Answered**
Chosen Option : **4**

Q.22 पारस, अपनी कक्षा में शीर्ष से 5$^{वें}$ स्थान पर है और नीचे से 24$^{वें}$ स्थान पर है। उसकी कक्षा में कितने विद्यार्थी हैं?

Ans
1. 26
✔ 2. 28
3. 27
4. 29

Question ID : **630680635342**
Option 1 ID : **6306802487252**
Option 2 ID : **6306802487249**
Option 3 ID : **6306802487251**
Option 4 ID : **6306802487250**
Status : **Answered**
Chosen Option : **2**

Q.23 नीचे एक कथन (कारण) दिया गया है, जिसके बाद संभावित प्रभाव संख्या I, II और III दिए गए हैं। 'कारण' को ध्यानपूर्वक से पढ़िए और निश्चय कीजिए कि तीनों में से कौन-सा/ कौन-से संभावित प्रभाव हो सकता/सकते है/हैं।

कारण - शहर X में कल हुई भारी बारिश के कारण रेलवे स्टेशन और हवाई अड्डे सहित कई क्षेत्रों में बाढ़ आ गई है।

प्रभाव I - रेलवे ने आज सुबह शहर X से शुरू होने वाली तीन ट्रेनों के प्रस्थान में देरी की घोषणा की है।
प्रभाव II - कल शाम कई उड़ानें शहर X के हवाई अड्डे पर उतरने में असमर्थ रहीं।
प्रभाव III - वित्त मंत्रालय ने टैक्स रिटर्न दाखिल करने की तारीख एक महीने बढ़ा दी है।

Ans
1. केवल II एक संभावित प्रभाव है।
✔ 2. I और II दोनों संभावित प्रभाव हैं।
3. केवल I एक संभावित प्रभाव है।
4. II और III दोनों संभावित प्रभाव हैं।

Question ID : **630680568505**
Option 1 ID : **6306802222838**
Option 2 ID : **6306802222840**
Option 3 ID : **6306802222837**
Option 4 ID : **6306802222839**
Status : **Answered**
Chosen Option : **2**

Q.24

Ans

1. 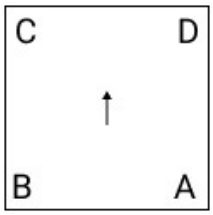

2. 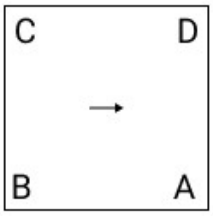

3. 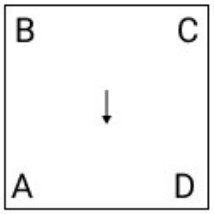

4. 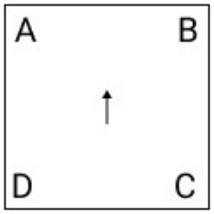

Question ID : **630680542579**
Option 1 ID : **6306802121251**
Option 2 ID : **6306802121250**
Option 3 ID : **6306802121252**
Option 4 ID : **6306802121249**
Status : **Answered**
Chosen Option : **1**

Q.25 किसी निश्चित कूट भाषा में, 'he enjoys music' को 'lo po jo' के रूप में कूटबद्ध किया जाता है और 'music and dance' को 'kb jo fk' के रूप में कूटबद्ध किया जाता है। दी गई भाषा में 'music' को किस प्रकार कूटबद्ध किया गया है?

Ans

1. fk
2. jo
3. lo
4. po

Question ID : **630680644316**
Option 1 ID : **6306802522573**
Option 2 ID : **6306802522572**
Option 3 ID : **6306802522571**
Option 4 ID : **6306802522574**
Status : **Answered**
Chosen Option : **2**

Q.26

Ans
1. चार
✔ 2. एक
3. तीन
4. दो

Question ID : **630680519581**
Option 1 ID : **6306802030751**
Option 2 ID : **6306802030748**
Option 3 ID : **6306802030750**
Option 4 ID : **6306802030749**
Status : **Answered**
Chosen Option : **2**

Q.27 निम्नलिखित पाँच आकृतियों में से चार आकृतियाँ एक निश्चित तरीके से समान हैं और इस प्रकार एक समूह बनाती हैं। वह कौन-सी आकृति है जो उस समूह से संबंधित नहीं है?

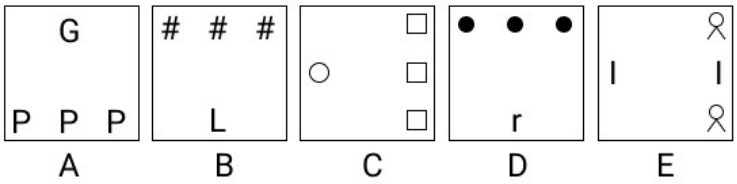

Ans
1. D
2. A
✔ 3. E
4. B

Question ID : **630680653551**
Option 1 ID : **6306802558620**
Option 2 ID : **6306802558618**
Option 3 ID : **6306802558621**
Option 4 ID : **6306802558619**
Status : **Answered**
Chosen Option : **3**

Q.28 निम्नलिखित जानकारी को पढ़िए और उसके बाद प्रश्न का उत्तर दीजिए।
"अनुभवी बागवानों की तरह, बागबान G मृदा उर्वरता को बनाए रखने के लिए सस्यावर्तन का अभ्यास करता है, जिससे पौधों की समृद्धि और विविधता बढ़ती है।"
दिए गए कथन से निम्नलिखित में से क्या अनुमान लगाया जा सकता है? (अनुमान, ऐसा कुछ है जो स्पष्ट रूप से कथित नहीं है, लेकिन कथन में दिए गए तथ्यों/जानकारी से प्राप्त किया जा सकता है)
1. बागबान G के बगीचे में समृद्ध और विविध पौधों की वृद्धि संभवतः सस्यावर्तन के अभ्यास से प्रभावित है।
2. सर्वोत्तम बागवानी अभ्यासों के लिए बागबान G क्षेत्र के अन्य बागबानों से परामर्श लेता है।

Ans
1. (I) और (II) दोनों का अनुमान लगाया जा सकता है।
2. न तो (I) और न ही (II) का अनुमान लगाया जा सकता है।
3. केवल (II) का अनुमान लगाया जा सकता है।
✔ 4. केवल (I) का अनुमान लगाया जा सकता है।

Question ID : **630680557214**
Option 1 ID : **6306802177838**
Option 2 ID : **6306802177837**
Option 3 ID : **6306802177836**
Option 4 ID : **6306802177835**
Status : **Answered**
Chosen Option : **4**

Q.29 एक निश्चित तर्क के अनुसार 17 का संबंध 159 से है। उसी तर्क के अनुसार 11 का संबंध 105 से है। समान तर्क का अनुसरण करते हुए, दिए गए विकल्पों में से 13 का संबंध किससे है?

(नोट: संख्याओं को उनके घटक अंकों में तोड़े बिना, संक्रियाएँ पूर्ण संख्याओं पर की जानी चाहिए। उदाहरण के लिए 13 लीजिए - 13 पर संक्रियाएँ जैसे कि 13 में जोड़ना/ घटाना/ गुणा करना आदि की जा सकती है। 13 को 1 और 3 में तोड़ना तथा फिर 1 और 3 पर गणितीय संक्रियाएँ करने की अनुमति नहीं है।)

Ans
1. 103
2. 116
3. 109
✔ 4. 123

Question ID : **630680913344**
Option 1 ID : **6306803578292**
Option 2 ID : **6306803578294**
Option 3 ID : **6306803578293**
Option 4 ID : **6306803578295**
Status : **Answered**
Chosen Option : **4**

Q.30 उस सही विकल्प का चयन कीजिए जो निम्नलिखित शब्दों के व्यवस्थापन को तार्किक और सार्थक क्रम में दर्शाता हो।

1. पौधा
2. परागण
3. बीज
4. अंकुर
5. फल

Ans ✔ 1. 3, 4, 1, 2, 5

2. 4, 3, 1, 2, 5

3. 4, 1, 2, 5, 3

4. 3, 4, 1, 5, 2

Question ID : **630680523399**
Option 1 ID : **6306802045774**
Option 2 ID : **6306802045776**
Option 3 ID : **6306802045775**
Option 4 ID : **6306802045777**
Status : **Answered**
Chosen Option : **1**

Section : **Module I English Language and Comprehension**

Q.1 **Select the correct spelling of the incorrectly spelt word in the given sentence.**

Good characteristics are indispensible to succeed in life.

Ans 1. Indespensible

✔ 2. Indispensable

3. Indespensable

4. Indispenscible

Question ID : **6306801320364**
Option 1 ID : **6306805196014**
Option 2 ID : **6306805196013**
Option 3 ID : **6306805196012**
Option 4 ID : **6306805196011**
Status : **Answered**
Chosen Option : **2**

Q.2 **Complete the dialogue for Person B using the correct idiom.**

Person A: We are all going to the club this weekend. Do you want to come?

Person B: Thank you for asking. But I don't like clubs. It's _____.

Ans 1. my cup of coffee

✔ 2. not my cup of tea

3. not my cup of coffee

4. not my cup, not my tea

Question ID : **630680333140**
Option 1 ID : **6306801295835**
Option 2 ID : **6306801295836**
Option 3 ID : **6306801295833**
Option 4 ID : **6306801295834**
Status : **Answered**
Chosen Option : **2**

Q.3 **Select the most appropriate idiom to fill in the blank.**

A lot of people are still _____ over the GDP issue.

Ans

1. sitting on the fence
2. breaking a leg
3. over the fence
4. by the fence

Question ID : **630680333143**
Option 1 ID : **6306801295846**
Option 2 ID : **6306801295845**
Option 3 ID : **6306801295847**
Option 4 ID : **6306801295848**
Status : **Answered**
Chosen Option : **1**

Q.4 **Parts of a sentence are given below in jumbled order. Arrange the parts in the correct order to form a meaningful sentence.**

Through the dense forest, / the hikers / trekked / for hours / before reaching / the mountain peak.

Ans

1. Before reaching the mountain peak, the hikers through the dense forest trekked for hours.
2. The hikers for hours through the dense forest trekked before reaching the mountain peak.
3. The hikers trekked for hours through the dense forest before reaching the mountain peak.
4. Through the dense forest for hours trekked the hikers before reaching the mountain peak.

Question ID : **630680745625**
Option 1 ID : **6306802922677**
Option 2 ID : **6306802922675**
Option 3 ID : **6306802922678**
Option 4 ID : **6306802922676**
Status : **Answered**
Chosen Option : **3**

Q.5 **Select the option that expresses the following sentence in passive voice.**

After we come to power at the Centre, we will conduct a countrywide caste census.

Ans

1. A countrywide caste census will be conducted by us after we come to power at the Centre.
2. A countrywide caste census will have been conducted by us after we come to power at the Centre.
3. A countrywide caste census will be conducted by us as and when we come to power at the Centre.
4. A countrywide caste census should be conducted by us when we come to power at the Centre.

Question ID : **630680607348**
Option 1 ID : **6306802376544**
Option 2 ID : **6306802376542**
Option 3 ID : **6306802376541**
Option 4 ID : **6306802376543**
Status : **Answered**
Chosen Option : **1**

Q.6 **Select the most appropriate article to fill in the blank.**
Rabindranath Tagore, _____ poet, was famous for his poetical work, Gitanjali.

Ans
1. an
2. the
3. a
4. no article required

Question ID : **630680166149**
Option 1 ID : **630680643571**
Option 2 ID : **630680643568**
Option 3 ID : **630680643570**
Option 4 ID : **630680643569**
Status : **Answered**
Chosen Option : **2**

Q.7 **Select the most appropriate option to fill in the blank.**

The blueberries in the basket are blue.
The denotation of the word 'blue' is _____.

Ans
1. gloominess
2. a colour ✔
3. sadness
4. negativity

Question ID : **630680147120**
Option 1 ID : **630680569301**
Option 2 ID : **630680569299**
Option 3 ID : **630680569300**
Option 4 ID : **630680569298**
Status : **Answered**
Chosen Option : **2**

Q.8 **Select the most appropriate synonym of the given word.**

Charisma

Ans
1. Charm ✔
2. Influence
3. Reputation
4. Atmosphere

Question ID : **630680628622**
Option 1 ID : **6306802460544**
Option 2 ID : **6306802460545**
Option 3 ID : **6306802460543**
Option 4 ID : **6306802460542**
Status : **Answered**
Chosen Option : **1**

Q.9 **Select the most appropriate option to fill in the blank.**

This is the _____ book that I have read till now.

Ans

1. more interesting
2. interesting
3. most interesting ✔
4. better interest

Question ID : **630680617607**
Option 1 ID : **6306802416658**
Option 2 ID : **6306802416659**
Option 3 ID : **6306802416657**
Option 4 ID : **6306802416660**
Status : **Answered**
Chosen Option : **3**

Q.10 **Select the option that can be used as a one-word substitute for the given group of words.**

Someone who walks on foot

Ans

1. Stalker
2. Pedestrian ✔
3. Decanter
4. Auditor

Question ID : **630680105687**
Option 1 ID : **630680410786**
Option 2 ID : **630680410785**
Option 3 ID : **630680410783**
Option 4 ID : **630680410784**
Status : **Answered**
Chosen Option : **2**

Q.11 **A sentence has been split up into segments and given below in jumbled order. While the first and the last segments of the sentence (1 and 6) are in the correct order, the segments in between are jumbled up. Arrange the segments in the correct order to form a meaningful and coherent sentence.**

1) An outstanding feature of the 21st century has been
P) greater security and education which
Q) the improvement of the income and
R) living conditions of the
S) working man leading to
6) has meant greater political power.

Ans

1. P, R, Q, S
2. S, P, Q, R
3. S, R, Q, P
4. Q, R, S, P ✔

Question ID : **630680295270**
Option 1 ID : **6306801148805**
Option 2 ID : **6306801148807**
Option 3 ID : **6306801148806**
Option 4 ID : **6306801148804**
Status : **Answered**
Chosen Option : **4**

Q.12 **Select the most appropriate ANTONYM of the word given below.**
Ameliorate

Ans
1. Exacerbate
2. Succour
3. Motto
4. Recondite

Question ID : **630680166477**
Option 1 ID : **630680644831**
Option 2 ID : **630680644830**
Option 3 ID : **630680644829**
Option 4 ID : **630680644828**
Status : **Answered**
Chosen Option : **1**

Q.13 **Select the most appropriate option to fill in the blank.**

The comedian's jokes were so funny that the entire audience erupted in _____.

Ans
1. later
2. loiter
3. latter
✔ 4. laughter

Question ID : **630680539774**
Option 1 ID : **6306802110207**
Option 2 ID : **6306802110206**
Option 3 ID : **6306802110205**
Option 4 ID : **6306802110208**
Status : **Answered**
Chosen Option : **4**

Q.14 **Select the option that can be used as a one-word substitute for the given group of words.**

Speaking disrespectfully about sacred or religious things

Ans
1. Biped
2. Belligerent
✔ 3. Blasphemy
4. Bigamy

Question ID : **63068069342**
Option 1 ID : **630680268049**
Option 2 ID : **630680268047**
Option 3 ID : **630680268046**
Option 4 ID : **630680268048**
Status : **Answered**
Chosen Option : **3**

Q.15 **Select the option that can be used as a one-word substitute for the given group of words.**
Someone who loves and admires himself the most

Ans

1. Recluse
2. Narcissist
3. Altruist
4. Omniscient

Question ID : **63068086330**
Option 1 ID : **630680334751**
Option 2 ID : **630680334749**
Option 3 ID : **630680334750**
Option 4 ID : **630680334748**
Status : **Answered**
Chosen Option : **2**

Q.16 **The given sentence is divided into four segments. Identify the segment that contains a grammatical error.**
When I returned to the office, / no work was left / as my friend Rahul / has done everything.

Ans

1. When I returned to the office,
2. as my friend Rahul
3. no work was left
4. has done everything ✔

Question ID : **630680157021**
Option 1 ID : **630680607636**
Option 2 ID : **630680607638**
Option 3 ID : **630680607637**
Option 4 ID : **630680607639**
Status : **Answered**
Chosen Option : **4**

Q.17 **Select the option that expresses the given sentence in passive voice.**

Don't park your car here.

Ans

1. Let your car be parked here.
2. Let your car not be parked here. ✔
3. Have not your car be parked here.
4. Let not your car be parked here.

Question ID : **630680627574**
Option 1 ID : **6306802456399**
Option 2 ID : **6306802456398**
Option 3 ID : **6306802456401**
Option 4 ID : **6306802456400**
Status : **Answered**
Chosen Option : **2**

Q.18 **The following sentence has been split into four segments. Identify the segment that contains a grammatical error.**
I, you and she/ have been working happily/ in the same company and in the same branch/ for the last nine years.

Ans

1. for the last nine years
2. I, you and she ✔
3. have been working happily
4. in the same company and in the same branch

Question ID : **630680176556**
Option 1 ID : **630680684451**
Option 2 ID : **630680684448**
Option 3 ID : **630680684449**
Option 4 ID : **630680684450**
Status : **Answered**
Chosen Option : **2**

Q.19 **Select the most appropriate ANTONYM of the given word.**

Thrifty

Ans

1. Extravagant ✔
2. Intolerant
3. Indifferent
4. Thankful

Question ID : **630680565685**
Option 1 ID : **6306802211677**
Option 2 ID : **6306802211679**
Option 3 ID : **6306802211678**
Option 4 ID : **6306802211676**
Status : **Answered**
Chosen Option : **1**

Q.20 **Sentences of a paragraph are given below. While the first and the last sentences (1 and 6) are in the correct order, the sentences in between are jumbled up. Arrange the sentences in the correct order to form a meaningful and coherent paragraph.**
1. There are some backward areas in Andhra Pradesh.
A. Rayalaseema is one of them.
B. Massive degradation of natural resources and extensive changes in land use have resulted in poor crop productivity in Rayalaseema.
C. The National Soil Survey and Land use planning organisation is doing its job by giving suggestions to the farmers of Rayalaseema.
D. Soil Organic Carbon (SOC), which is crucial for maintaining soil quality, has decreased by 84% in the region. Poor soil fertility and soil degradation, like in Rayalaseema region, are the major causes of food shortage.
6. The advice is about which crops are to be cultivated and which not.

Ans

1. DCBA
2. ABDC ✔
3. CBAD
4. CDBA

Question ID : **630680196513**
Option 1 ID : **630680762356**
Option 2 ID : **630680762355**
Option 3 ID : **630680762358**
Option 4 ID : **630680762357**
Status : **Answered**
Chosen Option : **2**

Q.21 **Select the option that expresses the given sentence in indirect speech.**

He said, "I shall need a copy of the documents."

Ans

1. He said that he will need a copy of the documents.
2. He said that he would need a copy of the documents.
3. He said that he shall need a copy of the document.
4. He said that he is going to need a copy of the document.

Question ID : **630680627725**
Option 1 ID : **6306802456996**
Option 2 ID : **6306802456995**
Option 3 ID : **6306802456997**
Option 4 ID : **6306802456998**
Status : **Answered**
Chosen Option : **2**

Q.22 **Select the option that expresses the given sentence in indirect speech.**

Kanhaiya said to me, “Do you want to sing?”

Ans

1. Kanhaiya said that I would sing or not.
2. Kanhaiya enquires if I want to sing.
3. Kanhaiya said that whether I would sing.
4. Kanhaiya asked me if I wanted to sing. ✔

Question ID : **630680628007**
Option 1 ID : **6306802458110**
Option 2 ID : **6306802458107**
Option 3 ID : **6306802458108**
Option 4 ID : **6306802458109**
Status : **Answered**
Chosen Option : **4**

Q.23 **Select the most appropriate option that can substitute the underlined words in the given sentence.**

In the makeshift <u>place of activity, debate or conflict</u>, there were hundreds of people with the queen's team of advisors and servants sitting within the ring against the wall.

Ans

1. casino
2. aviary
3. arena ✔
4. dormitory

Question ID : **630680669060**
Option 1 ID : **6306802619746**
Option 2 ID : **6306802619745**
Option 3 ID : **6306802619747**
Option 4 ID : **6306802619748**
Status : **Answered**
Chosen Option : **4**

Q.24 **Select the most appropriate ANTONYM of the given word.**

Melancholy

Ans

1. Mechanical
2. Profitable
3. Miserable
4. Pleasant ✔

Question ID : **630680565677**
Option 1 ID : **6306802211645**
Option 2 ID : **6306802211647**
Option 3 ID : **6306802211646**
Option 4 ID : **6306802211644**
Status : **Answered**
Chosen Option : **4**

Q.25 **Select the option that expresses the given sentence in reported speech.**

The soldier said to his fellow soldiers, "I have buried our brave comrade here.

Ans

1. The soldier told his fellow soldiers that I had buried our brave comrade there.
2. The soldier told us that I had buried their brave comrade here.
3. The soldier told us that he had buried our brave comrade there.
4. The soldier told his fellow soldiers that he had buried their brave comrade there. ✔

Question ID : **630680627778**
Option 1 ID : **6306802457209**
Option 2 ID : **6306802457210**
Option 3 ID : **6306802457207**
Option 4 ID : **6306802457208**
Status : **Answered**
Chosen Option : **4**

Q.26 **Select the most appropriate option to fill in the blank.**

Prescription safety glasses provide the _____ tailored protection for individuals with vision correction needs.

Ans

1. more finely
2. finer
3. finest ✔
4. fine

Question ID : **630680596034**
Option 1 ID : **6306802332321**
Option 2 ID : **6306802332320**
Option 3 ID : **6306802332323**
Option 4 ID : **6306802332322**
Status : **Answered**
Chosen Option : **3**

Q.27 **Select the option that expresses the given sentence in passive voice.**

Scientists have recently discovered a new species of marine life in the unexplored depths of the ocean.

Ans

1. A new species of marine life was recently discovered in the unexplored depths of the ocean by scientists.
2. A new species of marine life had recently been discovered in the unexplored depths of the ocean by scientists.
3. A new species of marine life was recently being discovered in the unexplored depths of the ocean by scientists.
4. A new species of marine life has recently been discovered in the unexplored depths of the ocean by scientists.

Question ID : **630680607346**
Option 1 ID : **6306802376533**
Option 2 ID : **6306802376534**
Option 3 ID : **6306802376535**
Option 4 ID : **6306802376536**
Status : **Answered**
Chosen Option : **4**

Q.28 **Select the most appropriate option that can substitute the underlined words in the given sentence.**

The nation has chosen the government by the people over monarchy.

Ans

1. oligarchy
2. autocracy
3. theocracy
4. democracy

Question ID : **630680668932**
Option 1 ID : **6306802619245**
Option 2 ID : **6306802619246**
Option 3 ID : **6306802619247**
Option 4 ID : **6306802619248**
Status : **Answered**
Chosen Option : **4**

Q.29 **Select the INCORRECTLY spelt word.**

Ans

1. Memento
2. Apparent
3. Practitionaire
4. Recommend

Question ID : **6306801320329**
Option 1 ID : **6306805195871**
Option 2 ID : **6306805195872**
Option 3 ID : **6306805195874**
Option 4 ID : **6306805195873**
Status : **Answered**
Chosen Option : **1**

Comprehension:

In the following passage, some words have been deleted. Read the passage carefully and select the most appropriate option to fill in each blank.

The greatest disease in the West today is not TB or leprosy; it is being unwanted, unloved, and uncared for. We can cure (1)_____ diseases with medicine, but the only cure for loneliness, despair, and hopelessness is love. There are many in the world who are (2)_____ for a piece of bread but there are many more dying for a little love. The poverty in the West is a different kind of poverty – it is not only a poverty of (3)_____ but also of (4)_____. There's a hunger for affection as there is a hunger for God.

SubQuestion No : 30

Q.30 Select the most appropriate option to fill in blank 1.

Ans

1. masculine
2. radical
3. stubborn
4. physical ✔

Question ID : **630680404891**
Option 1 ID : **6306801579048**
Option 2 ID : **6306801579047**
Option 3 ID : **6306801579049**
Option 4 ID : **6306801579050**
Status : **Answered**
Chosen Option : **4**

Comprehension:

In the following passage, some words have been deleted. Read the passage carefully and select the most appropriate option to fill in each blank.

The greatest disease in the West today is not TB or leprosy; it is being unwanted, unloved, and uncared for. We can cure (1)_____ diseases with medicine, but the only cure for loneliness, despair, and hopelessness is love. There are many in the world who are (2)_____ for a piece of bread but there are many more dying for a little love. The poverty in the West is a different kind of poverty – it is not only a poverty of (3)_____ but also of (4)_____. There's a hunger for affection as there is a hunger for God.

SubQuestion No : 31

Q.31 Select the most appropriate option to fill in blank 2.

Ans

1. dying ✔
2. neglecting
3. ignoring
4. disregarding

Question ID : **630680404892**
Option 1 ID : **6306801579053**
Option 2 ID : **6306801579051**
Option 3 ID : **6306801579052**
Option 4 ID : **6306801579054**
Status : **Answered**
Chosen Option : **1**

Comprehension:

In the following passage, some words have been deleted. Read the passage carefully and select the most appropriate option to fill in each blank.

The greatest disease in the West today is not TB or leprosy; it is being unwanted, unloved, and uncared for. We can cure (1)_____ diseases with medicine, but the only cure for loneliness, despair, and hopelessness is love. There are many in the world who are (2)_____ for a piece of bread but there are many more dying for a little love. The poverty in the West is a different kind of poverty – it is not only a poverty of (3)_____ but also of (4)_____. There's a hunger for affection as there is a hunger for God.

SubQuestion No : 32

Q.32 Select the most appropriate option to fill in blank 3.

Ans

1. abundance
2. loneliness ✔
3. lavishness
4. profusion

Question ID : **630680404893**
Option 1 ID : **6306801579055**
Option 2 ID : **6306801579057**
Option 3 ID : **6306801579058**
Option 4 ID : **6306801579056**
Status : **Answered**
Chosen Option : **2**

Comprehension:

In the following passage, some words have been deleted. Read the passage carefully and select the most appropriate option to fill in each blank.

The greatest disease in the West today is not TB or leprosy; it is being unwanted, unloved, and uncared for. We can cure (1)_____ diseases with medicine, but the only cure for loneliness, despair, and hopelessness is love. There are many in the world who are (2)_____ for a piece of bread but there are many more dying for a little love. The poverty in the West is a different kind of poverty – it is not only a poverty of (3)_____ but also of (4)_____. There's a hunger for affection as there is a hunger for God.

SubQuestion No : 33

Q.33 Select the most appropriate option to fill in blank 4.

Ans

1. covetous
2. materialistic
3. spirituality ✔
4. educate

Question ID : **630680404894**
Option 1 ID : **6306801579061**
Option 2 ID : **6306801579059**
Option 3 ID : **6306801579062**
Option 4 ID : **6306801579060**
Status : **Answered**
Chosen Option : **2**

Comprehension:

Read the given passage and answer the questions that follow.

The extraction of indigo dye involves harvesting the small, green leaves of the Indigofera plant before its flowers bloom. These leaves undergo a process of soaking in water and churning until a navy blue froth is released. The upper portion of the resulting mixture is drained for irrigation, while the leaves are repurposed as fertilizer. After allowing the water and fine sediment to settle for a day, the liquid is separated from the sediment. The obtained deep blue paste is then subjected to filtration to remove dirt and impurities, followed by compression into cakes and drying for several days. Once dried, the indigo is ready for use as a dye. Lime ($Ca(OH)_2$) can be added to the initial water and leaves mixture, and various natural sugars can be dissolved into the paste to enhance the extraction process.

SubQuestion No : 34

Q.34 What is the overall tone of the passage?

Ans

✔ 1. Informative and instructional

2. Critical and analytical

3. Emotional and sentimental

4. Humorous and light-hearted

Question ID : **630680545661**
Option 1 ID : **6306802133232**
Option 2 ID : **6306802133233**
Option 3 ID : **6306802133235**
Option 4 ID : **6306802133234**
Status : **Answered**
Chosen Option : **1**

Comprehension:

Read the given passage and answer the questions that follow.

The extraction of indigo dye involves harvesting the small, green leaves of the Indigofera plant before its flowers bloom. These leaves undergo a process of soaking in water and churning until a navy blue froth is released. The upper portion of the resulting mixture is drained for irrigation, while the leaves are repurposed as fertilizer. After allowing the water and fine sediment to settle for a day, the liquid is separated from the sediment. The obtained deep blue paste is then subjected to filtration to remove dirt and impurities, followed by compression into cakes and drying for several days. Once dried, the indigo is ready for use as a dye. Lime ($Ca(OH)_2$) can be added to the initial water and leaves mixture, and various natural sugars can be dissolved into the paste to enhance the extraction process.

SubQuestion No : 35

Q.35 Select the most appropriate synonym of the word 'impurities' from the options given below.

Ans

1. purity

2. cleanliness

✔ 3. scum

4. pureness

Question ID : **630680545663**
Option 1 ID : **6306802133243**
Option 2 ID : **6306802133240**
Option 3 ID : **6306802133241**
Option 4 ID : **6306802133242**
Status : **Answered**
Chosen Option : **3**

Comprehension:

Read the given passage and answer the questions that follow.

The extraction of indigo dye involves harvesting the small, green leaves of the Indigofera plant before its flowers bloom. These leaves undergo a process of soaking in water and churning until a navy blue froth is released. The upper portion of the resulting mixture is drained for irrigation, while the leaves are repurposed as fertilizer. After allowing the water and fine sediment to settle for a day, the liquid is separated from the sediment. The obtained deep blue paste is then subjected to filtration to remove dirt and impurities, followed by compression into cakes and drying for several days. Once dried, the indigo is ready for use as a dye. Lime ($Ca(OH)_2$) can be added to the initial water and leaves mixture, and various natural sugars can be dissolved into the paste to enhance the extraction process.

SubQuestion No : 36

Q.36 What is the central theme of the passage describing the extraction process of indigo dye from the Indigofera plant?

Ans

1. The cultivation and growth cycle of the Indigofera plant
2. The various uses of indigo dye in different industries
3. The impact of lime and natural sugars on the indigo extraction process
4. The intricate process of harvesting and processing indigo leaves ✔

Question ID : **630680545660**
Option 1 ID : **6306802133228**
Option 2 ID : **6306802133229**
Option 3 ID : **6306802133231**
Option 4 ID : **6306802133230**
Status : **Answered**
Chosen Option : **1**

Comprehension:

Read the given passage and answer the questions that follow.

The extraction of indigo dye involves harvesting the small, green leaves of the Indigofera plant before its flowers bloom. These leaves undergo a process of soaking in water and churning until a navy blue froth is released. The upper portion of the resulting mixture is drained for irrigation, while the leaves are repurposed as fertilizer. After allowing the water and fine sediment to settle for a day, the liquid is separated from the sediment. The obtained deep blue paste is then subjected to filtration to remove dirt and impurities, followed by compression into cakes and drying for several days. Once dried, the indigo is ready for use as a dye. Lime ($Ca(OH)_2$) can be added to the initial water and leaves mixture, and various natural sugars can be dissolved into the paste to enhance the extraction process.

SubQuestion No : 37

Q.37 In the extraction process described, what is the purpose of allowing the water and fine sediment at the bottom of the tank to settle for a day?

Ans

1. To promote the growth of additional indigo leaves
2. To enhance the aroma of the indigo dye
3. To facilitate the separation of liquid from sediment ✔
4. To create a unique texture in the final indigo paste

Question ID : **630680545662**
Option 1 ID : **6306802133236**
Option 2 ID : **6306802133237**
Option 3 ID : **6306802133238**
Option 4 ID : **6306802133239**
Status : **Answered**
Chosen Option : **3**

Comprehension:

Read the given passage and answer the questions that follow.

Engaging in regular physical activity is not only beneficial for physical well-being but also has a profound impact on mental health. Studies have shown that exercise releases endorphins, chemicals in the brain that act as natural painkillers and mood elevators. Additionally, consistent exercise has been linked to reduced symptoms of anxiety and depression. Contrary to common misconceptions, it doesn't require intense workouts; even moderate activities like walking or yoga can contribute to improved mental well-being. Making exercise a regular part of one's routine not only supports physical fitness but also nurtures a positive and resilient mindset.

SubQuestion No : 38

Q.38 **Determine the tone of the passage by choosing the option that reflects the overall emotional quality of the writing.**

Ans

1. Dramatic
2. Critical
3. Informative ✔
4. Humorous

Question ID : **630680549230**
Option 1 ID : **6306802147388**
Option 2 ID : **6306802147387**
Option 3 ID : **6306802147385**
Option 4 ID : **6306802147386**
Status : **Answered**
Chosen Option : **3**

Comprehension:

Read the given passage and answer the questions that follow.

Engaging in regular physical activity is not only beneficial for physical well-being but also has a profound impact on mental health. Studies have shown that exercise releases endorphins, chemicals in the brain that act as natural painkillers and mood elevators. Additionally, consistent exercise has been linked to reduced symptoms of anxiety and depression. Contrary to common misconceptions, it doesn't require intense workouts; even moderate activities like walking or yoga can contribute to improved mental well-being. Making exercise a regular part of one's routine not only supports physical fitness but also nurtures a positive and resilient mindset.

SubQuestion No : 39

Q.39 **Select the most appropriate title for the given passage.**

Ans

1. Importance of Regular Physical Activities ✔
2. The Impact of Technology on Health
3. The Importance of a Balanced Diet
4. The Benefits of Mindfulness Meditation

Question ID : **630680549165**
Option 1 ID : **6306802147130**
Option 2 ID : **6306802147132**
Option 3 ID : **6306802147129**
Option 4 ID : **6306802147131**
Status : **Answered**
Chosen Option : **1**

Comprehension:

Read the given passage and answer the questions that follow.

Engaging in regular physical activity is not only beneficial for physical well-being but also has a profound impact on mental health. Studies have shown that exercise releases endorphins, chemicals in the brain that act as natural painkillers and mood elevators. Additionally, consistent exercise has been linked to reduced symptoms of anxiety and depression. Contrary to common misconceptions, it doesn't require intense workouts; even moderate activities like walking or yoga can contribute to improved mental well-being. Making exercise a regular part of one's routine not only supports physical fitness but also nurtures a positive and resilient mindset.

SubQuestion No : 40

Q.40 **Select the option that provides an accurate summary of the main points discussed in the passage.**

Ans

1. Exercise only impacts physical well-being, not mental health.

2. Exercise requires intense workouts for mental health benefits.

✔ 3. Engaging in regular physical activity positively impacts mental health by releasing endorphins and reducing symptoms of anxiety and depression.

4. The passage discusses the negative effects of technology on health.

Question ID : **630680549231**
Option 1 ID : **6306802147389**
Option 2 ID : **6306802147390**
Option 3 ID : **6306802147391**
Option 4 ID : **6306802147392**
Status : **Answered**
Chosen Option : **3**

Comprehension:

Read the given passage and answer the questions that follow.

Engaging in regular physical activity is not only beneficial for physical well-being but also has a profound impact on mental health. Studies have shown that exercise releases endorphins, chemicals in the brain that act as natural painkillers and mood elevators. Additionally, consistent exercise has been linked to reduced symptoms of anxiety and depression. Contrary to common misconceptions, it doesn't require intense workouts; even moderate activities like walking or yoga can contribute to improved mental well-being. Making exercise a regular part of one's routine not only supports physical fitness but also nurtures a positive and resilient mindset.

SubQuestion No : 41

Q.41 **Which of the following is a fact mentioned in the passage?**

Ans

1. Exercise requires intense workouts for mental health benefits.

2. Regular exercise has no impact on mental health.

✔ 3. Exercise releases endorphins, contributing to improved mental well-being.

4. Only intense physical activities are linked to reduced anxiety and depression.

Question ID : **630680549189**
Option 1 ID : **6306802147229**
Option 2 ID : **6306802147230**
Option 3 ID : **6306802147231**
Option 4 ID : **6306802147232**
Status : **Answered**
Chosen Option : **3**

Comprehension:

Read the given passage and answer the questions that follow.
Reading is an important communication skill that has many benefits and it has great impact on a person's life. We should develop a reading habit as it allows us to learn new information and gives us access to a wide range of opportunities and ideas. So, reading regularly not only broadens our aspect and knowledge but also improves our intelligence, perspective, judgement and understanding of the world. It helps to stimulate creativity and imagination, to relieve the stress and pressure, and to provide a source of entertainment. The major benefit of reading is to develop the analytical and critical skills of a reader. The former involves gathering information and breaking it down into parts for better understanding, while the latter involves evaluating the same information and making judgments based on evidence. Reading a book or any content improves our language and vocabulary, so we can easily comprehend the words and their use in the context. It also helps in cognitive development in young children so at the primary level, children are more involved in reading rather than writing.

SubQuestion No : 42

Q.42 According to the passage, what is the role of reading?

Ans

✔ 1. To learn new information to avail opportunity

2. To make environment healthy

3. To give strength to the body

4. To not to share information

Question ID : **630680512951**
Option 1 ID : **6306802004748**
Option 2 ID : **6306802004749**
Option 3 ID : **6306802004746**
Option 4 ID : **6306802004747**
Status : **Answered**
Chosen Option : **1**

Comprehension:

Read the given passage and answer the questions that follow.
Reading is an important communication skill that has many benefits and it has great impact on a person's life. We should develop a reading habit as it allows us to learn new information and gives us access to a wide range of opportunities and ideas. So, reading regularly not only broadens our aspect and knowledge but also improves our intelligence, perspective, judgement and understanding of the world. It helps to stimulate creativity and imagination, to relieve the stress and pressure, and to provide a source of entertainment. The major benefit of reading is to develop the analytical and critical skills of a reader. The former involves gathering information and breaking it down into parts for better understanding, while the latter involves evaluating the same information and making judgments based on evidence. Reading a book or any content improves our language and vocabulary, so we can easily comprehend the words and their use in the context. It also helps in cognitive development in young children so at the primary level, children are more involved in reading rather than writing.

SubQuestion No : 43

Q.43 Which skill is used by a reader when he evaluates the same information and makes judgments based on evidence?

Ans

1. Analytical skill

✔ 2. Critical skill

3. Drawing skill

4. Technical skill

Question ID : **630680512953**
Option 1 ID : **6306802004754**
Option 2 ID : **6306802004756**
Option 3 ID : **6306802004755**
Option 4 ID : **6306802004757**
Status : **Answered**
Chosen Option : **2**

Comprehension:

Read the given passage and answer the questions that follow.
Reading is an important communication skill that has many benefits and it has great impact on a person's life. We should develop a reading habit as it allows us to learn new information and gives us access to a wide range of opportunities and ideas. So, reading regularly not only broadens our aspect and knowledge but also improves our intelligence, perspective, judgement and understanding of the world. It helps to stimulate creativity and imagination, to relieve the stress and pressure, and to provide a source of entertainment. The major benefit of reading is to develop the analytical and critical skills of a reader. The former involves gathering information and breaking it down into parts for better understanding, while the latter involves evaluating the same information and making judgments based on evidence. Reading a book or any content improves our language and vocabulary, so we can easily comprehend the words and their use in the context. It also helps in cognitive development in young children so at the primary level, children are more involved in reading rather than writing.

SubQuestion No : 44

Q.44 Cognitive development in a child is related to:

Ans

1. social development
2. environmental development
3. ✔ mental development
4. technical development

Question ID : **630680512954**
Option 1 ID : **6306802004760**
Option 2 ID : **6306802004761**
Option 3 ID : **6306802004758**
Option 4 ID : **6306802004759**
Status : **Answered**
Chosen Option : **3**

Comprehension:

Read the given passage and answer the questions that follow.
Reading is an important communication skill that has many benefits and it has great impact on a person's life. We should develop a reading habit as it allows us to learn new information and gives us access to a wide range of opportunities and ideas. So, reading regularly not only broadens our aspect and knowledge but also improves our intelligence, perspective, judgement and understanding of the world. It helps to stimulate creativity and imagination, to relieve the stress and pressure, and to provide a source of entertainment. The major benefit of reading is to develop the analytical and critical skills of a reader. The former involves gathering information and breaking it down into parts for better understanding, while the latter involves evaluating the same information and making judgments based on evidence. Reading a book or any content improves our language and vocabulary, so we can easily comprehend the words and their use in the context. It also helps in cognitive development in young children so at the primary level, children are more involved in reading rather than writing.

SubQuestion No : 45

Q.45 Which skill is used by a reader when he gathers information and breaks it down in a logical pattern to solve a problem?

Ans

1. Speaking skill
2. Critical skill
3. ✔ Analytical skill
4. Reasoning skill

Question ID : **630680512952**
Option 1 ID : **6306802004752**
Option 2 ID : **6306802004750**
Option 3 ID : **6306802004751**
Option 4 ID : **6306802004753**
Status : **Answered**
Chosen Option : **3**

Section : **Module II General Awareness**

Q.1 निम्नलिखित में से कौन भारत के राष्ट्रपति थे, जब भारत ने पोखरण में अपना पहला परमाणु परीक्षण किया था?

Ans
1. वीवी गिरि
2. डॉ ए.पी.जे. अब्दुल कलाम
3. ज्ञानी जैल सिंह
4. फखरुद्दीन अली अहमद

Question ID : **630680761432**
Option 1 ID : **6306802984653**
Option 2 ID : **6306802984656**
Option 3 ID : **6306802984655**
Option 4 ID : **6306802984654**
Status : **Answered**
Chosen Option : **4**

Q.2 हरित क्रांति के कारण प्रारंभ में निम्नलिखित में से किन फसलों की उत्पादकता में वृद्धि हुई थी?

Ans
1. गेहूँ और गन्ना
✔ 2. गेहूँ और चावल
3. चावल और दलहन
4. चावल और कपास

Question ID : **630680607909**
Option 1 ID : **6306802378818**
Option 2 ID : **6306802378817**
Option 3 ID : **6306802378820**
Option 4 ID : **6306802378819**
Status : **Answered**
Chosen Option : **2**

Q.3 निम्नलिखित में से किस वर्ष में महात्मा गांधी ने भारत में पहली बार सत्याग्रह और भूख हड़ताल का नेतृत्व किया?

Ans
1. 1919
✔ 2. 1918
3. 1920
4. 1917

Question ID : **6306801162474**
Option 1 ID : **6306804569269**
Option 2 ID : **6306804569268**
Option 3 ID : **6306804569270**
Option 4 ID : **6306804569267**
Status : **Answered**
Chosen Option : **4**

Q.4 **Which of the following best defines liberalisation?**

Ans

1. The process of maintaining existing government regulations and restrictions on economic activities.

2. The process of reducing or removing government regulations and restrictions on economic activities.

3. The process of enforcing strict government control over economic activities.

4. The process of increasing government regulations and restrictions on economic activities.

Question ID : **630680637560**
Option 1 ID : **6306802495957**
Option 2 ID : **6306802495958**
Option 3 ID : **6306802495959**
Option 4 ID : **6306802495956**
Status : **Answered**
Chosen Option : **2**

Q.5 **जेम्स चैडविक ने विद्युत आवेश से रहित प्राथमिक कण, न्यूट्रॉन के अस्तित्व को कब सिद्ध किया?**

Ans

1. 1920

2. 1941

✔ 3. 1932

4. 1955

Question ID : **630680618166**
Option 1 ID : **6306802419005**
Option 2 ID : **6306802419007**
Option 3 ID : **6306802419006**
Option 4 ID : **6306802419008**
Status : **Not Attempted and Marked For Review**
Chosen Option : **--**

Q.6 **कौन-सा पदार्थ आमतौर पर अम्ल-क्षारक सूचक के रूप में उपयोग किया जाता है, जो अम्लीय घोल में लाल और क्षारीय घोल में नीला हो जाता है?**

Ans

1. मेथिल ऑरेंज

✔ 2. लिटमस कागज

3. फिनॉल

4. ब्रोमोथाइमॉल नील

Question ID : **630680572262**
Option 1 ID : **6306802237907**
Option 2 ID : **6306802237906**
Option 3 ID : **6306802237904**
Option 4 ID : **6306802237905**
Status : **Answered**
Chosen Option : **2**

Q.7 भारत की जनगणना 2011 के अनुसार, हिंदू धर्म की दर्ज की गई जनसंख्या वृद्धि दर कितनी थी?

Ans
1. 11.7%
2. 16.8%
3. 18.5%
4. 14,3%

Question ID : **630680569753**
Option 1 ID : **6306802227804**
Option 2 ID : **6306802227806**
Option 3 ID : **6306802227807**
Option 4 ID : **6306802227805**
Status : **Answered**
Chosen Option : **2**

Q.8 जुलाई 2023 में, 565 km/hr की चाल से शॉट लगाकर, सबसे तेज़ बैडमिंटन शॉट लगाने का नया गिनीज वर्ल्ड रिकॉर्ड किसने बनाया?

Ans
1. साइना नेहवाल
✔ 2. सात्विकसाईराज रंकीरेड्डी
3. पी.वी. सिंधु
4. किदांबी श्रीकांत

Question ID : **630680575051**
Option 1 ID : **6306802249026**
Option 2 ID : **6306802249027**
Option 3 ID : **6306802249024**
Option 4 ID : **6306802249025**
Status : **Answered**
Chosen Option : **2**

Q.9 कौन-सा अमीनो एसिड सेरोटोनिन का अग्रद्रव्य, कोई न्यूरोट्रांसमीटर है, जो आपकी भूख, नींद और मूड को नियंत्रित करता है?

Ans
1. आइसोल्यूसीन
2. वैलीन
3. मेथिओनिन
✔ 4. ट्रिप्टोफान

Question ID : **630680618472**
Option 1 ID : **6306802420217**
Option 2 ID : **6306802420219**
Option 3 ID : **6306802420220**
Option 4 ID : **6306802420218**
Status : **Not Answered**
Chosen Option : **--**

Q.10 कोपेन जलवायु वर्गीकरण में कौन-सा अक्षर कोड, मध्य अक्षांश मरुस्थल जलवायु को दर्शाता है?

Ans

1. EF
2. Dw
3. BWk
4. Cfa

Question ID : **630680618279**
Option 1 ID : **6306802419447**
Option 2 ID : **6306802419446**
Option 3 ID : **6306802419445**
Option 4 ID : **6306802419448**
Status : **Not Answered**
Chosen Option : **--**

Q.11 संयुक्त राष्ट्र सांख्यिकी प्रभाग (UNSD) के नेतृत्व में इंटरनेशनल कैंपेरीजन प्रोग्राम (ICP) का प्राथमिक लक्ष्य क्या है?

Ans

1. अंतरराष्ट्रीय व्यापार पर डेटा एकत्र करना
2. ✔ क्रय शक्ति समानताओं (PPPs) और मूल्य स्तर सूचकांकों की गणना करना
3. विश्व स्तर पर सांख्यिकीय कार्यालयों को कार्यान्वित करना
4. वैश्विक स्तर पर बेरोजगारी आकलन तैयार करना

Question ID : **630680618857**
Option 1 ID : **6306802421709**
Option 2 ID : **6306802421706**
Option 3 ID : **6306802421708**
Option 4 ID : **6306802421707**
Status : **Answered**
Chosen Option : **3**

Q.12 निम्नलिखित में से किस मामले में, भारत के उच्चतम न्यायालय ने यह निर्णय दिया कि, 'मौलिक अधिकारों और निर्देशक सिद्धांतों के बीच किसी भी विसंगति की स्थिति में, मौलिक अधिकार ही मान्य होगा'?

Ans

1. केशवानंद भारती मामला, 1973
2. गोलकनाथ मामला, 1967
3. मिनर्वा मिल्स मामला, 1980
4. ✔ चंपकम दोरईजन मामला, 1951

Question ID : **630680758985**
Option 1 ID : **6306802974897**
Option 2 ID : **6306802974896**
Option 3 ID : **6306802974898**
Option 4 ID : **6306802974895**
Status : **Answered**
Chosen Option : **3**

Q.13 सिंगर और निकोलसन द्वारा फ्ल्यूड मोज़ेक मॉडल किस वर्ष प्रस्तावित किया गया था? मॉडल आमतौर पर कोशिका झिल्ली संरचना और गतिशीलता का निरूपण करता है।

Ans
1. 1960
2. 1972
3. 1993
4. 1981

Question ID : **630680618488**
Option 1 ID : **6306802420281**
Option 2 ID : **6306802420282**
Option 3 ID : **6306802420284**
Option 4 ID : **6306802420283**
Status : **Not Answered**
Chosen Option : **--**

Q.14 कुषाण सम्राट कनिष्क, जिसने पहली शताब्दी के अंत से लेकर दूसरी शताब्दी के आरंभ/मध्य तक शासन किया, वह _____ कुषाण शासक था।

Ans
1. पांचवां
✔ 2. तीसरा
3. चौथा
4. दूसरा

Question ID : **630680511614**
Option 1 ID : **6306801999581**
Option 2 ID : **6306801999579**
Option 3 ID : **6306801999580**
Option 4 ID : **6306801999578**
Status : **Answered**
Chosen Option : **4**

Q.15 **Which of the following is NOT the qualification for the appointment of judges of supreme court?**

Ans
1. A judge of high court for at least five years
2. An advocate of high court for at least ten years
✔ 3. An advocate of supreme court for at least ten years
4. A distinguished judge in the opinion of the President

Question ID : **630680616228**
Option 1 ID : **6306802411591**
Option 2 ID : **6306802411592**
Option 3 ID : **6306802411593**
Option 4 ID : **6306802411594**
Status : **Answered**
Chosen Option : **2**

Q.16 जनवरी 2024 में केंद्रीय नागरिक उड्डयन मंत्री द्वारा उद्घाटन किए गए विंग्स इंडिया 2024, एविएशन एक्सपो का विषय क्या है?

Ans

1. भारतीय एयरोस्पेस में विमानन और सतत विकास: अमृत काल में भविष्य की संभावनाएं। (Aviation and Sustainable Development in the Indian Aerospace: Future possibilities in Amrit Kaal.)
2. एयरोस्पेस में प्रगति: अमृत काल में भारत के विमानन भविष्य की एक झलक। (Advancements in Aerospace: A Glimpse into India's Aviation Future in Amrit Kaal.)
3. ✔ अमृत काल में भारत को विश्व से जोड़ना: भारत नागरिक उड्डयन @2047 के लिए मंच तैयार करना। (Connecting India to the World in Amrit Kaal: Setting the Stage for India Civil Aviation @2047.)
4. अमृत काल में एविएशन एक्सपो-विंग्स इंडिया: भारतीय नागरिक उड्डयन के भविष्य को आकार देना। (Aviation Expo-Wings India in Amrit Kaal: Shaping the Future of Indian Civil Aviation.)

Question ID : **630680571724**
Option 1 ID : **6306802235806**
Option 2 ID : **6306802235805**
Option 3 ID : **6306802235807**
Option 4 ID : **6306802235804**
Status : **Answered**
Chosen Option : **3**

Q.17 भारत ने किस खेल में पाकिस्तान को 2-1 से हराकर 2023 में पुरुष जूनियर एशिया कप जीता, और इस प्रतिष्ठित प्रतियोगिता में अधिकतम खिताब जीतने के मामले में उन्हें पीछे छोड़ दिया?

Ans

1. ✔ हॉकी
2. बास्केटबॉल
3. बैडमिंटन
4. फ़ुटबॉल

Question ID : **630680579880**
Option 1 ID : **6306802268410**
Option 2 ID : **6306802268411**
Option 3 ID : **6306802268413**
Option 4 ID : **6306802268412**
Status : **Answered**
Chosen Option : **1**

Q.18 राष्ट्रीय अल्पसंख्यक विकास एवं वित्त निगम (NMDFC) द्वारा ऋण लेखांकन प्रक्रियाओं को डिजिटल बनाने और एंड्रॉइड और आईओएस के लिए मोबाइल ऐप जारी करने सहित एमआईएस पोर्टल को एकीकृत करने के लिए लॉन्च किए गए सॉफ्टवेयर का नाम क्या है?

Ans

1. LOAN-X (लोन एकाउंटिंग नेटवर्क फॉर एनएमडीएफसी)
2. ✔ MILAN (माइनॉरिटी लोन एकाउंटिंग फॉर एनएमडीएफसी)
3. MILAP (माइनॉरिटी लोन एकाउंटिंग सॉफ्टवेयर फॉर प्रोजेक्ट्स)
4. DIGIT (डिजिटल इंटेग्रेशन फॉर गवर्नमेंट ट्रांजैशन)

Question ID : **630680580390**
Option 1 ID : **6306802270451**
Option 2 ID : **6306802270453**
Option 3 ID : **6306802270452**
Option 4 ID : **6306802270450**
Status : **Answered**
Chosen Option : **2**

Q.19 **लीवर और पुली के नियमों की खोज किसने की, जो हमें कम बलों का उपयोग करके भारी वस्तुओं को एक स्थान से दूसरे स्थान तक पहुँचाने में मदद करते हैं?**

Ans
1. पाइथागोरस
✔ 2. आर्किमिडीज
3. डेमोक्राइटस
4. यूडोक्सस

Question ID : **630680618160**
Option 1 ID : **6306802418983**
Option 2 ID : **6306802418981**
Option 3 ID : **6306802418984**
Option 4 ID : **6306802418982**
Status : **Not Answered**
Chosen Option : **--**

Q.20 **निम्नलिखित में से कौन-सी भारत की पूर्ववर्ती नदी नहीं है?**

Ans
1. कोसी
2. गंगा
✔ 3. यमुना
4. सिंधु

Question ID : **630680644612**
Option 1 ID : **6306802523759**
Option 2 ID : **6306802523757**
Option 3 ID : **6306802523758**
Option 4 ID : **6306802523756**
Status : **Answered**
Chosen Option : **4**

Q.21 समीकरण $F = k\left(q_1 \times \frac{q_2}{r^2}\right)$ किसका निरूपण करता है?

(जहाँ F दो बिंदु आवेश q_1 और q_2 का आकर्षक या प्रतिकर्षक विद्युत बल है और r दो आवेशों के बीच की दूरी है)

Ans
1. बायो-सेवर्ट का नियम
2. चार्ल्स का नियम
3. ओम का नियम
4. कूलम्ब का नियम

Question ID : **630680305590**
Option 1 ID : **6306801188736**
Option 2 ID : **6306801188733**
Option 3 ID : **6306801188735**
Option 4 ID : **6306801188734**
Status : **Answered**
Chosen Option : **4**

Q.22 ख्वाजा मुइनुद्दीन चिश्ती की दरगाह पर जाने वाले पहले सुल्तान (दरगाह शरीफ के दर्ज इतिहास में) कौन थे?

Ans

1. बलबन
2. मुहम्मद बिन तुग़लक़
3. अलाउद्दीन खिलजी
4. जलालुद्दीन खिलजी

Question ID : **630680362742**
Option 1 ID : **6306801412722**
Option 2 ID : **6306801412724**
Option 3 ID : **6306801412721**
Option 4 ID : **6306801412723**
Status : **Answered**
Chosen Option : **3**

Q.23 ग्लोबल वार्मिंग से निपटने और इसके प्रभावों की तैयारी को लेकर 1992 में कौन-सी अंतरराष्ट्रीय संधि अपनाई गई थी?

Ans

✔ 1. यूनाइटेड नेशन्स फ्रेमवर्क कन्वेंशन ऑन क्लाइमेट चेंज (United Nations Framework Convention on Climate Change)
2. मिनामाता कन्वेंशन ऑन मरकरी (Minamata Convention on Mercury)
3. स्टॉकहोम कन्वेंशन ऑन ऑर्गेनिक पल्यूटेंट्स (Stockholm Convention on Persistent Organic Pollutants)
4. वियना कन्वेंशन फॉर द प्रोटेक्शन ऑफ द ओज़ोन लेयर (Vienna Convention for the Protection of the Ozone Layer)

Question ID : **630680618275**
Option 1 ID : **6306802419429**
Option 2 ID : **6306802419431**
Option 3 ID : **6306802419432**
Option 4 ID : **6306802419430**
Status : **Answered**
Chosen Option : **1**

Q.24 मध्य भारत के उल्लू की कौन-सी स्थानिक-प्रजाति 2018 से IUCN रेड लिस्ट में लुप्तप्राय के रूप में सूचीबद्ध है?

Ans

✔ 1. वन उल्लू
2. बार्न ओवलेट
3. बर्फीला उल्लू
4. लंबे कान वाला उल्लू

Question ID : **630680618938**
Option 1 ID : **6306802422028**
Option 2 ID : **6306802422031**
Option 3 ID : **6306802422029**
Option 4 ID : **6306802422030**
Status : **Not Answered**
Chosen Option : **--**

Q.25 निम्नलिखित में से कौन-सा भारतीय रेलवे के दक्षिण मध्य क्षेत्र का मुख्यालय है?

Ans

1. हाजीपुर
2. बिलासपुर
3. सिकंदराबाद
4. जबलपुर

Question ID : **630680663574**
Option 1 ID : **6306802597941**
Option 2 ID : **6306802597940**
Option 3 ID : **6306802597939**
Option 4 ID : **6306802597942**
Status : **Answered**
Chosen Option : **4**

Section : **Module I Computer Knowledge Module**

Q.1 **Which keyboard shortcut is used to increase the indent in a paragraph in MS Word 2010?**

Ans

1. Ctrl + K
2. Ctrl + M
3. Ctrl + D
4. Ctrl + U

Question ID : **630680995382**
Option 1 ID : **6306803905545**
Option 2 ID : **6306803905544**
Option 3 ID : **6306803905543**
Option 4 ID : **6306803905546**
Status : **Not Answered**
Chosen Option : **--**

Q.2 **डेस्कटॉप और लैपटॉप ऑपरेटिंग सिस्टम को एम्बेडेड सिस्टम की तुलना में अधिक उन्नत मेमोरी प्रबंधन तकनीकों की आवश्यकता क्यों होती है?**

Ans

1. डेस्कटॉप और लैपटॉप ऑपरेटिंग सिस्टम के लिए मेमोरी प्रबंधन आवश्यक नहीं है।
2. वे सीमित हार्डवेयर संसाधनों के कारण स्टेटिक मेमोरी एलोकेशन पर निर्भर करते हैं।
3. वे अधिक हार्डवेयर संसाधनों का उपयोग करते हैं और उन्हें डायनामिक मेमोरी एलोकेशन (allocation) की आवश्यकता होती है।
4. वे एक समय में केवल एक ही एप्लिकेशन रन करते हैं, जिससे मेमोरी प्रबंधन सरल हो जाता है।

Question ID : **6306801313221**
Option 1 ID : **6306805167617**
Option 2 ID : **6306805167616**
Option 3 ID : **6306805167614**
Option 4 ID : **6306805167615**
Status : **Answered**
Chosen Option : **3**

Q.3 एमएस पावरपॉइंट में, आप स्लाइड शो एक्ज़िट करके एडिटिंग मोड पर कैसे लौट सकते हैं?

Ans

1. Esc प्रेस करें
2. Alt + Tab प्रेस करें
3. Spacebar प्रेस करें
4. Ctrl + S प्रेस करें

Question ID : **630680978961**
Option 1 ID : **6306803839825**
Option 2 ID : **6306803839828**
Option 3 ID : **6306803839826**
Option 4 ID : **6306803839827**
Status : **Answered**
Chosen Option : **1**

Q.4 निम्नलिखित में से कौन-सा परिदृश्य, सिस्टम सॉफ्टवेयर और एप्लिकेशन सॉफ्टवेयर की परस्पर निर्भरता को सही ढंग से स्पष्ट करता है?

Ans

1. एक डिवाइस ड्राइवर जो प्रिंटिंग कार्यक्षमता प्रदान करने के लिए एप्लिकेशन सॉफ़्टवेयर के रूप में कार्य करता है।
2. एक ऑपरेटिंग सिस्टम जिसमें हार्डवेयर संसाधनों को प्रबंधित करने के लिए मीडिया प्लेयर की आवश्यकता होती है।
3. एक एंटीवायरस प्रोग्राम, जो डिस्क स्कैन करने और मैलवेयर हटाने के लिए सिस्टम युटिलिटी (system utilities) पर निर्भर होता है।
4. एक वर्ड प्रोसेसर जो किसी ऑपरेटिंग सिस्टम की आवश्यकता के बिना स्वतंत्र रूप से कार्य करता है।

Question ID : **6306801296506**
Option 1 ID : **6306805100694**
Option 2 ID : **6306805100695**
Option 3 ID : **6306805100693**
Option 4 ID : **6306805100692**
Status : **Answered**
Chosen Option : **3**

Q.5 विंडोज़ में, सिस्टम सेटिंग्स को मॉडिफाई करते समय, यूजर अकाउंट कंट्रोल (UAC) की क्या भूमिका होती है?

Ans

1. सॉफ्टवेयर अपडेट को स्वचालित बनाना
2. मेमोरी यूसेज और परफॉरमेंस को मॉनिटर करना
3. सिस्टम-वाइड परिवर्तन करने से पहले अनुमति के लिए प्राम्प्ट (prompt) करना
4. डिस्प्ले सेटिंग को एडजस्ट करना

Question ID : **6306801313312**
Option 1 ID : **6306805167994**
Option 2 ID : **6306805167992**
Option 3 ID : **6306805167993**
Option 4 ID : **6306805167995**
Status : **Answered**
Chosen Option : **2**

Q.6 एमएस एक्सेल 2010 में, COUNT() फ़ंक्शन का क्या कार्य है?

Ans

1. सेल की संख्या गिनना
2. सेल की संख्या स्टोर करना
3. सेल की संख्या को डुप्लिकेट करना
4. सेल की संख्या प्रिंट करना

Question ID : **630680994774**
Option 1 ID : **6306803903115**
Option 2 ID : **6306803903118**
Option 3 ID : **6306803903117**
Option 4 ID : **6306803903116**
Status : **Answered**
Chosen Option : **1**

Q.7 मल्टीपार्ट ईमेल मैसेज में, Content-Type हेडर में बाउंड्री पैरामीटर क्या दर्शाता है?

Ans

✔ 1. यह मल्टीपार्ट मैसेज में प्रत्येक भाग के आरंभ और अंत को चिह्नित करता है।
2. यह ईमेल मैसेज की लेंथ (length) निर्धारित करता है।
3. यह ईमेल की बॉडी को अटैचमेंट से अलग करता है।
4. यह प्रत्येक अटैचमेंट के फ़ाइल साइज़ को सीमित करता है।

Question ID : **6306801301370**
Option 1 ID : **6306805120382**
Option 2 ID : **6306805120381**
Option 3 ID : **6306805120380**
Option 4 ID : **6306805120383**
Status : **Answered**
Chosen Option : **2**

Q.8 ROM का उपयोग मुख्यतः निम्नलिखित में से किस उद्देश्य के लिए किया जाता है?

Ans

✔ 1. BIOS या फ़र्मवेयर को स्टोर करना
2. स्थायी एक्सेस के लिए फ़ाइलें स्टोर करना
3. रैंडम डेटा एक्सेस
4. अस्थायी डेटा संग्रहण

Question ID : **6306801305893**
Option 1 ID : **6306805138477**
Option 2 ID : **6306805138478**
Option 3 ID : **6306805138479**
Option 4 ID : **6306805138476**
Status : **Answered**
Chosen Option : **2**

Q.9 _____ विधि का उपयोग सामान्यतः डेटा की इंटीग्रिटी (integrity) को वेरीफाई करने के लिए किया जाता है।

Ans

1. डुप्लिकेशन (Duplication)
✔ 2. हैशिंग (Hashing)
3. कम्प्रेशन (Compression)
4. कैशिंग (Caching)

Question ID : **630680990659**
Option 1 ID : **6306803886975**
Option 2 ID : **6306803886972**
Option 3 ID : **6306803886974**
Option 4 ID : **6306803886973**
Status : **Answered**
Chosen Option : **2**

Q.10 सेंट्रल प्रोसेसिंग यूनिट (CPU) के संबंध में, निम्नलिखित में से कौन-सा/से कथन सही है/हैं?
CPU को प्रायः कंप्यूटर का 'मस्तिष्क' कहा जाता है।
CPU में तीन मुख्य इकाइयाँ होती हैं: नियंत्रण इकाई (CU), अंकगणितीय तर्क इकाई (ALU) और कैश मेमोरी।

Ans

1. 1 और 2 दोनों
2. केवल 2
3. ✔ केवल 1
4. न तो 1 और न ही 2

Question ID : **6306801312610**
Option 1 ID : **6306805165248**
Option 2 ID : **6306805165247**
Option 3 ID : **6306805165246**
Option 4 ID : **6306805165249**
Status : **Answered**
Chosen Option : **1**

Q.11 एमएस वर्ड में कौन-सा ऑप्शन, यूजर को डॉक्यूमेंट में टेक्स्ट को बाईं ओर, बीच में, दाईं ओर अलाइन करने या पूरे पेज पर इसे जस्टिफाई करने की सुविधा देता है?

Ans

1. Text Direction: टेक्स्ट के ओरिएंटेशन को बदलता है, जैसे लंबवत या क्षैतिज, लेकिन उसका एलाइनमेंट नहीं बदलता
2. Font Style: यह टेक्स्ट के अपीयरेंस को बदलता है लेकिन उसके एलाइनमेंट को प्रभावित नहीं करता
3. Line Spacing: टेक्स्ट की पंक्तियों के बीच के स्पेस को एडजस्ट करता है लेकिन टेक्स्ट एलाइनमेंट को प्रभावित नहीं करता है
4. ✔ Paragraph Alignment: टेक्स्ट के एलाइनमेंट को बाईं ओर, बीच में, दाईं ओर एडजस्ट करता है या इसे जस्टिफाई करता है

Question ID : **630680994002**
Option 1 ID : **6306803900098**
Option 2 ID : **6306803900097**
Option 3 ID : **6306803900100**
Option 4 ID : **6306803900099**
Status : **Answered**
Chosen Option : **4**

Q.12 PC पर पासवर्ड को इनेबल करने का उद्देश्य क्या होता है?

Ans

1. डेटा सिग्नल की स्ट्रेंथ (strength) में सुधार करना
2. इंस्टॉल किए गए एप्लिकेशन को कम करना
3. PC के डेटा को प्रिंट करना
4. ✔ सुरक्षा का एक अतिरिक्त स्तर प्रदान करना

Question ID : **630680995500**
Option 1 ID : **6306803906004**
Option 2 ID : **6306803906005**
Option 3 ID : **6306803906006**
Option 4 ID : **6306803906003**
Status : **Answered**
Chosen Option : **4**

Q.13 WAN संचार के लिए सामान्यतः किस प्रकार के मीडिया का उपयोग किया जाता है?

Ans
1. एचडीएमआई केबल (HDMI Cable)
2. कोएक्सियल केबल (Coaxial Cable)
3. ट्विस्टेड पेयर केबल (Twisted Pair Cable)
✔ 4. फाइबर ऑप्टिक केबल (Fiber Optic Cable)

Question ID : **6306801308865**
Option 1 ID : **6306805150290**
Option 2 ID : **6306805150288**
Option 3 ID : **6306805150287**
Option 4 ID : **6306805150289**
Status : **Answered**
Chosen Option : **4**

Q.14 विंडोज सिस्टम पर एक्सेक्यूटेबल इंस्टॉलेशन फ़ाइलों (executable installation files) के लिए किस फ़ाइल एक्सटेंशन का सबसे अधिक उपयोग किया जाता है?

Ans
1. .mp3
2. .jpg
✔ 3. .exe
4. .txt

Question ID : **6306801313375**
Option 1 ID : **6306805168251**
Option 2 ID : **6306805168249**
Option 3 ID : **6306805168248**
Option 4 ID : **6306805168250**
Status : **Answered**
Chosen Option : **3**

Q.15 प्रत्येक ASCII कैरेक्टर का बिट में साइज़ कितना होता है?

Ans
1. 5 बिट
2. 16 बिट
3. 4 बिट
✔ 4. 8 बिट

Question ID : **6306801272148**
Option 1 ID : **6306805003023**
Option 2 ID : **6306805003025**
Option 3 ID : **6306805003022**
Option 4 ID : **6306805003024**
Status : **Answered**
Chosen Option : **4**

Q.16 लोकल एरिया नेटवर्क (LAN) में, निम्नलिखित में से किसका उपयोग यह सुनिश्चित करने के लिए सबसे अधिक किया जाता है कि डेटा पैकेट को उसके MAC एड्रेस के आधार पर सही डिवाइस पर कुशलतापूर्वक अग्रेषित किया गया है?

Ans
✔ 1. लेयर 3 स्विच (Layer 3 Switch)
2. राउटर (Router)
3. ब्रिज (Bridge)
4. हब (Hub)

Question ID : **6306801301414**
Option 1 ID : **6306805120558**
Option 2 ID : **6306805120559**
Option 3 ID : **6306805120557**
Option 4 ID : **6306805120556**
Status : **Answered**
Chosen Option : **2**

Q.17 एमएस पावरपॉइंट में ब्लैंक प्रेजेंटेशन क्रिएट करने के लिए सही चरण (steps) क्या हैं?

Ans

1. Blank Presentation -> New -> File
2. File -> New -> Blank Presentation
3. File -> Blank Presentation -> New
4. New -> Blank Presentation -> File

Question ID : **630680993339**
Option 1 ID : **6306803897495**
Option 2 ID : **6306803897492**
Option 3 ID : **6306803897494**
Option 4 ID : **6306803897493**
Status : **Answered**
Chosen Option : **2**

Q.18 आउटबॉक्स में निम्नलिखित में से कौन-सी क्रियाएँ विशिष्ट रूप से की जा सकती हैं?

Ans

1. कांटेक्ट लिस्ट को मैनेज करना
2. प्राप्त ईमेल को डिलीट करना
3. उन ईमेल को एडिट करना जो अभी भेजे जाने बाकी हैं
4. आर्काइव (archived) ईमेल को देखना

Question ID : **630680993896**
Option 1 ID : **6306803899684**
Option 2 ID : **6306803899681**
Option 3 ID : **6306803899682**
Option 4 ID : **6306803899683**
Status : **Not Answered**
Chosen Option : **--**

Q.19 कंप्यूटर के वायरस से संक्रमित (infected) होने का सामान्य संकेत क्या है?

Ans

1. तीव्रतर (Faster) सिस्टम बूट समय
2. सिस्टम का असामान्य रूप से धीमा होना और अप्रत्याशित त्रुटियाँ (error)
3. हार्ड ड्राइव स्पेस में वृद्धि
4. सिस्टम सुरक्षा में सुधार

Question ID : **630680994650**
Option 1 ID : **6306803902647**
Option 2 ID : **6306803902650**
Option 3 ID : **6306803902649**
Option 4 ID : **6306803902648**
Status : **Answered**
Chosen Option : **2**

Q.20 एक्सेल वर्कशीट में, जब कोई यूजर एक नई पंक्ति (row) इन्सर्ट करता है, तो क्या होता है?

Ans

1. मौजूदा पंक्तियाँ दाईं ओर शिफ्ट हो जाती हैं।
2. पंक्ति में मौजूद डेटा ओवरराईट (overwrite) हो जाता है।
3. नई पंक्ति वर्कशीट के बॉटम में ऐड हो जाती है।
4. मौजूदा पंक्तियाँ नीचे की ओर शिफ्ट हो जाती हैं।

Question ID : **630680992589**
Option 1 ID : **6306803894630**
Option 2 ID : **6306803894631**
Option 3 ID : **6306803894628**
Option 4 ID : **6306803894629**
Status : **Answered**
Chosen Option : **4**