SSC CGL Exam Day Based Paper (30 Sep 2026)

Q1. आकृति X को मोड़कर कौन सी विकल्प आकृति बनाई जा सकती है?

Figure-X

(a)

(b)

(c) 

(d)

Ans.(c)

Q2. कथन:
(i) सेमिनार में शामिल होने वाले सभी स्टाफ सदस्यों ने इसे फायदेमंद पाया।
(ii) सुश्री चेन एक स्टाफ सदस्य हैं।
निष्कर्ष:
(i) सुश्री चेन ने सेमिनार को फायदेमंद पाया।
(ii) सेमिनार में न आने वाले किसी भी व्यक्ति ने इसे फायदेमंद नहीं पाया।
(a) केवल निष्कर्ष (i) अनुसरण करता है
(b) केवल निष्कर्ष (ii) अनुसरण करता है
(c) दोनों (i) and (ii) अनुसरण करते हैं
(d) कोई नहीं
Ans.(d)

Q3. कथन
क्या सरकार रक्षा पर इतना अधिक खर्च करने में न्यायसंगत है?
तर्क:
I. हाँ। देश की सुरक्षा सर्वोपरि महत्व रखती है।
II. नहीं। शांति के दौरान, इस पैसे का उपयोग देश के विकास के लिए किया जा सकता है।

(a) यदि केवल तर्क I मजबूत है
(b) यदि केवल तर्क II मजबूत है
(c) यदि दोनों तर्क मजबूत हैं
(d) यदि न तो I और न ही II मजबूत है
Ans.(a)

Q4. राहुल ने कहा, "वह महिला मेरी पत्नी की माँ की इकलौती बेटी के पति की माँ है।" वह महिला राहुल से किस प्रकार संबंधित है?
(a) माँ
(b) सास
(c) सिस्टर-इन-लॉ
(d) समधिन
Ans.(a)

Q5. इस प्रश्न में, एक कथन के बाद दो निष्कर्ष दिए गए हैं। ज्ञात कीजिए कि दिए गए कथन के आधार पर कौन सा निष्कर्ष सत्य है।
कथन: $M \geq N = O < P \leq Q$
निष्कर्ष:
I. $N < Q$
II. $M \geq O$
(a) I और II दोनों सत्य हैं
(b) केवल II सत्य है
(c) न तो I और न ही II सत्य है
(d) केवल I सत्य है
Ans.(a)

Q6. उस समुच्चय का चयन करें जहाँ स्वरों और व्यंजनों का पैटर्न भिन्न है।
(a) LAMP
(b) DUST
(c) GRIN
(d) MOON
Ans.(d)

Q7. एक निश्चित कूट भाषा में, INDIA को JOEJB के रूप में कोडित किया जाता है, DELHI को कैसे कोडित किया जाएगा?
(a) EFMJI
(b) EFMIJ
(c) EFNHJ
(d) EFPJI
Ans.(b)

Q8. उस विकल्प का चयन करें जो पांचवें पद से उसी प्रकार संबंधित है जैसे दूसरा पद पहले पद से संबंधित है और चौथा पद तीसरे पद से संबंधित है।
IGEC : DFHJ : : USQO : PRTV : : NLJH : ?
(a) OMHI
(b) IKMO
(c) MOQS

(d) FDBZ
Ans.(b)

Q9. निम्नलिखित प्रश्न में, चार संख्या युग्म दिए गए हैं। प्रत्येक युग्म में (-) के बाईं ओर की संख्या किसी तर्क/नियम/संबंध से (-) के दाईं ओर की संख्या से संबंधित है। तीन युग्म समान तर्क/नियम/संबंध के आधार पर एक जैसे हैं। दिए गए विकल्पों में से भिन्न को चुनें।
(a) 1989 - 663
(b) 1161 - 387
(c) 1752 - 584
(d) 1496 - 492
Ans.(d)

Q10. आपको आधिकारिक रिकॉर्ड से एक मास्टर पता (MA) दिया गया है। आपका कार्य उस सही उम्मीदवार के पते की पहचान करना है जो स्वरूपण, विराम चिह्न, वर्तनी और संरचना के संदर्भ में मास्टर पते से बिल्कुल मेल खाता है।
मास्टर पता (MA): 14, Park Avenue, Block C, Green Meadows, Kolkata - 700019
उम्मीदवार के पते:
(a) 14 Park Avenue, Block C, Green Meadows, Kolkata - 700019
(b) 14, Park Avenue, Block C, Green Meadows, Kolkata - 700019
(c) 14, Park Avenue, Block C, Green Meadows, Calcutta 700019
(d) 14, Park Ave., Block C, Green Meadows, Kolkata 700019
Ans.(b)

Q11. एक निश्चित कूट भाषा में, NEUTRAL को OFVUSBM के रूप में लिखा जाता है.. उसी कूट भाषा में CAPTURE को कैसे लिखा जाएगा?
(a) DBQUVTF
(b) DBQUSVF
(c) EBQUVTF
(d) DBQUVSF
Ans.(d)

Q12. यदि **+** का अर्थ ÷, - का अर्थ ×, × का अर्थ **+** और ÷ का अर्थ - है, तो मान ज्ञात कीजिए:
100 + 10 - 2 × 4+ 2 = ?
(a) 20
(b) 24
(c) 22
(d) 26
Ans.(c)

Q13. यदि GAME को HBNF के रूप में कूटबद्ध किया जाता है, तो PLAY को किस रूप में कूटबद्ध किया जाएगा
(a) QMBB
(b) QMBZ
(c) PLBZ
(d) QMCZ
Ans.(b)

Q14. निम्नलिखित श्रृंखला में अगला क्या आएगा?
A1, B1, C8, D27, E125, F512, ?
(a) G125
(b) E1728
(c) G729
(d) G2197
Ans.(d)

Q15. निम्नलिखित में से कौन सी विकल्प आकृति नीचे दी गई आकृति में पैटर्न को पूरा करेगी?

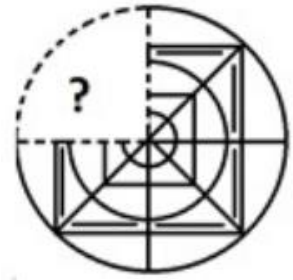

(a)

(b)

(c)

(d)

Ans.(d)

Q16. 8 महिलाएँ A, B, C, D, E, F, G और H एक वृत्ताकार मेज के चारों ओर केंद्र के विपरीत दिशा में मुख करके बैठी हैं (जरूरी नहीं कि इसी क्रम में हों)। B, H के बाईं ओर दूसरे स्थान पर है। A, B के बाईं ओर तीसरे स्थान पर है। D, H के ठीक दाईं ओर है। F, D के बाईं ओर चौथे स्थान पर है। C, H और B की निकटतम पड़ोसी है। G, H के दाईं ओर दूसरे स्थान पर है। E के ठीक दाईं ओर कौन है?
(a) F
(b) H
(c) A
(d) B
Ans.(a)

Q17. निम्नलिखित आकृति श्रृंखला में, दिए गए विकल्पों में से उस आकृति का चयन करें जिसे प्रश्न चिह्न (?) के स्थान पर रखा जा सकता है।

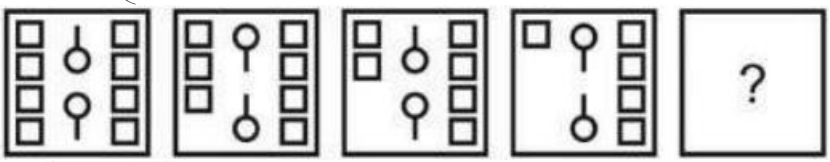

(a)

(b) 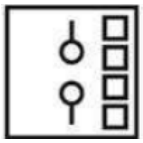

(c)

(d) 

Ans.(b)

Q18. दी गई शृंखला में प्रश्नवाचक चिह्न (?) के स्थान पर कौन सी संख्या आएगी?

54	7	4	99
62	8	7	119
55	11	6	?

(a) 168
(b) 164
(c) 170
(d) 172
Ans.(c)

Q19. निर्देश: नीचे दिए गए प्रश्न के लिए, संदर्भ कथन की ध्यानपूर्वक जांच करें। फिर, चार विकल्पों (a, b, c, d) में से उस एक विकल्प की पहचान करें जो संदर्भ कथन की सटीक और पूर्ण प्रतिकृति है। प्रत्येक वर्ण, संख्या, प्रतीक, रिक्ति और विराम चिह्न पर विशेष ध्यान दें।
संदर्भ: Valletta, MT: 21 September 1964.
(a) Valletta, MT: 21 September 1964.
(b) Valetta, MT: 21 September 1964.
(c) Valletta, MT: 2.1 September 1946.
(d) Valletta, MT: 21 September 1946.
Ans.(a)

Q20. एक सुबह देव अपने घर से 100 मीटर पश्चिम की ओर चला और फिर दाएँ मुड़ा और 150 मीटर चला। अंत में वह बाएँ मुड़ा और मंदिर तक पहुँचने के लिए 100 मीटर चला। देव के घर से मंदिर की न्यूनतम दूरी क्या है और किस दिशा में है?
(a) 250 मीटर उत्तर - पूर्व
(b) 250 किमी उत्तर - पश्चिम
(c) 250 मीटर उत्तर - पश्चिम
(d) 250 मीटर दक्षिण - पश्चिम
Ans.(c)

Q21. एक श्रृंखला दी गई है जिसमें एक पद लुप्त है। दिए गए विकल्पों में से उस सही विकल्प का चयन कीजिए जो श्रृंखला को पूरा करेगा।
14, 41, 121, 360, 1076, ?, 9663
(a) 3224
(b) 3226
(c) 3221
(d) 3223
Ans.(d)

Q22. किसी महीने की 13 तारीख को बुधवार है। इस महीने में 28 दिन हैं। अगले महीने की 28 तारीख को कौन सा दिन होगा?
(a) बुधवार
(b) शनिवार
(c) गुरुवार
(d) शुक्रवार
Ans.(c)

Q23. 'मैकेनिकल इंजीनियर' के पद के लिए उम्मीदवार का चयन करने के मानदंड इस प्रकार हैं।
उम्मीदवार:
1. को 75% से अधिक अंकों के साथ मैकेनिकल इंजीनियरिंग में M.Tech उत्तीर्ण होना चाहिए।
2. लिखित परीक्षा में 65% से अधिक और साक्षात्कार में 70% से अधिक अंक प्राप्त किए होने चाहिए।
3. 1 जनवरी 2019 को 30 वर्ष से कम और 35 वर्ष से अधिक नहीं होना चाहिए।
हालांकि, यदि कोई उम्मीदवार निम्नलिखित को छोड़कर उपरोक्त सभी मानदंडों को पूरा करता है:
a. सं. 2, लेकिन M.Tech में 80% से अधिक अंक प्राप्त किए हैं, तो उसके मामले को मुख्य अभियंता के पास भेजा जाना है।
b. सं. 3, लेकिन मैकेनिकल इंजीनियर के रूप में काम करने का पांच साल से अधिक का अनुभव है, तो उसके मामले को उप निदेशक के पास भेजा जाना है।
दिए गए मानदंडों के आधार पर और बिना किसी अतिरिक्त जानकारी को माने, आपको निम्नलिखित उम्मीदवार के लिए निर्णय लेना है।
विजेंद्र ने मैकेनिकल इंजीनियरिंग में 76% अंकों के साथ M.Tech पूरा किया है। उसका जन्म 14 नवंबर 1983 को हुआ था। उसने लिखित परीक्षा और साक्षात्कार दोनों में 73% अंक प्राप्त किए हैं। उसने तीन साल तक मैकेनिकल इंजीनियर के रूप में काम किया है।
(a) उम्मीदवार का चयन किया जाना है।
(b) उम्मीदवार का चयन नहीं किया जाना है।
(c) उम्मीदवार के मामले को मुख्य अभियंता के पास भेजा जाना है।
(d) उम्मीदवार के मामले को उप निदेशक के पास भेजा जाना है।

Ans.(b)

Q24. यह मानते हुए कि नीचे दिए गए कथन सत्य हैं, निम्नलिखित में से कौन सा निष्कर्ष तार्किक रूप से निकाला जा सकता है?
कथन:
कंपनी ने अपने कर्मचारियों के लिए लचीले काम के घंटे शुरू किए हैं।
निष्कर्ष:
I. कर्मचारी अपने काम का समय चुन सकते हैं।
II. कंपनी का उद्देश्य कार्य-जीवन संतुलन में सुधार करना है।
(a) केवल I अनुसरण करता है
(b) केवल II अनुसरण करता है
(c) I और II दोनों अनुसरण करते हैं
(d) न तो I और न ही II अनुसरण करता है
Ans.(a)

Q25. इस प्रश्न में, एक कथन दिया गया है जिसके बाद दो निष्कर्ष I और II दिए गए हैं। यह मानते हुए कि कथन में दी गई सभी जानकारी सत्य है, दोनों निष्कर्षों का एक साथ विश्लेषण करें और निर्धारित करें कि उनमें से कौन सा कथन में दी गई जानकारी का तार्किक और निश्चित रूप से अनुसरण करता है।
कथन: लोग ज्यादातर हाई स्पीड नेट कनेक्शन पसंद करते हैं।
निष्कर्ष:
I. हाई स्पीड इंटरनेट कनेक्शन बहुत सस्ते हैं।
II. लोग अपने वेब पेजों के लोड होने के लिए लंबे समय तक इंतजार नहीं करना चाहते हैं।
(a) केवल I अनुसरण करता है
(b) केवल II अनुसरण करता है
(c) कोई अनुसरण नहीं करता है
(d) I और II दोनों अनुसरण करते हैं
Ans.(b)

Q26. एस्थेनोस्फीयर (दुर्बलतामंडल) प्लेट की गतिविधियों में एक महत्वपूर्ण भूमिका निभाता है क्योंकि:
(a) यह आंशिक रूप से पिघला हुआ है और प्लेटों को गति करने देता है।
(b) यह जल निकायों से बना है।
(c) यह पूर्णतया ठोस और कठोर है।
(d) यह पृथ्वी का चुंबकीय क्षेत्र बनाता है।
Ans.(a)

Q27. औद्योगिक नीति वक्तव्य, 1991 का फोकस निम्नलिखित में से क्या था? I. नियंत्रण और नियमों को कम करके विदेशी निवेश की अनुमति देना। II. निजी क्षेत्र में बीमार इकाइयों के लिए निकास नीति।
(a) केवल I
(b) केवल II
(c) I और II दोनों
(d) न तो I और न ही II
Ans.(c)

Q28. जुलाई 2026 में रक्षा अधिग्रहण परिषद (DAC) से निम्नलिखित में से किस प्रणाली/प्रस्ताव को आवश्यकता की स्वीकृति (AoN) अनुमोदन प्राप्त हुआ?
1. आकाश तरंग एंटी-मानवरहित हवाई वाहन (एंटी-UAV) इलेक्ट्रॉनिक वारफेयर सिस्टम
2. मल्टी इन्फ्लुएंस ग्राउंड माइन्स (MIGM)
3. फिक्स्ड-विंग हाई-ऑल्टीट्यूड स्यूडो सैटेलाइट्स (FW-HAPS)
4. मैन-पोर्टेबल एंटी-टैंक गाइडेड मिसाइल (MPATGM) सिस्टम
(a) केवल 1 और 2
(b) केवल 2 और 3
(c) केवल 1, 3 और 4
(d) 1, 2, 3 और 4
Ans.(d)

Q29. 'डेढ़ सतारा' वाद्य यंत्र किस भारतीय राज्य से संबंधित है?
(a) केरल
(b) मणिपुर
(c) राजस्थान
(d) पश्चिम बंगाल
Ans.(c)

Q30. एक भारतीय त्योहार के संबंध में निम्नलिखित कथनों पर विचार करें:
i. यह मुख्य रूप से पंजाब में पंजाबियों द्वारा मनाया जाता है।
ii. इस त्योहार को पंजाब का फसल उत्सव भी कहा जाता है।
निम्नलिखित में से किस त्योहार की बात हो रही है?
(a) छठ पूजा
(b) लोहड़ी
(c) उगादि
(d) बिहू
Ans.(b)

Q31. मुगल काल में प्रांतीय प्रशासन के संबंध में निम्नलिखित कथनों पर विचार करें और सही विकल्प का चयन करें।
कथन I: सूबेदार प्रांत का प्रमुख था और सामान्य कानून व्यवस्था बनाए रखने के लिए जिम्मेदार था।
कथन II: सूबे में राजस्व विभाग का प्रमुख दीवान था।
(a) कथन I और II दोनों सही हैं।
(b) कथन I और II दोनों गलत हैं।
(c) कथन I सही है, जबकि कथन II गलत है।
(d) कथन I गलत है, जबकि कथन II सही है।
Ans.(a)

Q32. भारत के वायु गुणवत्ता सूचकांक (AQI) के अंतर्गत कितने प्रदूषकों को मापा जाता है?
(a) 4
(b) 6
(c) 8
(d) 10
Ans.(c)

Q33. 2026 एशियाई एरोबिक जिमनास्टिक्स चैंपियनशिप में अरिहा पंगंबम की उपलब्धि के संबंध में निम्नलिखित कथनों पर विचार करें:
1. अरिहा पंगंबम एशियाई एरोबिक जिमनास्टिक्स चैंपियनशिप में सीनियर महिला स्पर्धा में व्यक्तिगत स्वर्ण पदक जीतने वाली पहली भारतीय बनीं।
2. उन्होंने फिलीपींस के टैगेटे सिटी में आयोजित चैंपियनशिप में 19.100 अंकों के स्कोर के साथ स्वर्ण पदक हासिल किया।
3. थाईलैंड की चन्यापिट माने और जापान की महिरो किशिबे ने क्रमशः रजत और कांस्य पदक जीते।
ऊपर दिए गए कथनों में से कौन सा/से सही है/हैं?
(a) केवल 1 और 2
(b) केवल 2 और 3
(c) केवल 1 और 3
(d) 1, 2 और 3
Ans.(d)

Q34. नीचे दिए गए कथनों को पढ़िए:
कथन I: 'जोजी ला दर्रा' महान हिमालय श्रृंखला को काटते हुए कश्मीर घाटी और लद्दाख क्षेत्र के बीच एक बहुत महत्वपूर्ण कड़ी के रूप में कार्य करता है।
कथन II: 'शिपकी ला दर्रा' अरुणाचल प्रदेश में स्थित है और तिब्बत से भारत में प्रवेश करने वाली ब्रह्मपुत्र नदी के लिए एक प्राथमिक प्रवेश द्वार के रूप में कार्य करता है।
(a) केवल कथन II सही है
(b) न तो कथन I और न ही II सही है
(c) केवल कथन I सही है
(d) कथन I और II दोनों सही हैं
Ans.(c)

Q35. UNDP द्वारा अपनी मानव विकास रिपोर्ट में देशों की तुलना करने के लिए निम्नलिखित में से किस संकेतक के संयोजन का उपयोग किया जाता है?
(a) कुल आय, सैन्य शक्ति, साक्षरता दर
(b) GDP, प्रति व्यक्ति आय, निर्यात प्रदर्शन
(c) जीवन प्रत्याशा, शिक्षा का स्तर, प्रति व्यक्ति आय
(d) रोजगार दर, औद्योगिक विकास, प्राकृतिक संसाधन
Ans.(c)

Q36. निम्नलिखित कथनों को पढ़ें:
1. अमर-नायक प्रणाली विजयनगर साम्राज्य का एक प्रमुख राजनीतिक नवाचार था।
2. अमर-नायक किसान थे जिन्हें राय द्वारा क्षेत्र दिए गए थे।
3. वे सालाना राजा को श्रद्धांजलि भेजते थे और व्यक्तिगत रूप से दरबार में उपस्थित होते थे।
उपरोक्त में से कौन सा/से कथन सत्य है/हैं?
(a) केवल कथन 1 और 2
(b) केवल कथन 2 और 3
(c) केवल कथन 1 और 3
(d) केवल कथन 1
Ans.(c)

Q37. निम्नलिखित कथनों को पढ़ें और सही विकल्प चुनें:
कथन I: पोंगल मुख्य रूप से तमिलनाडु में एक फसल उत्सव के रूप में मनाया जाता है।
कथन II: बैसाखी पंजाब में मनाया जाता है, जो सिख नव वर्ष का प्रतीक है।
(a) केवल कथन I सही है
(b) केवल कथन II सही है
(c) कथन I और II दोनों सही हैं
(d) न तो कथन I और न ही कथन II सही है
Ans.(c)

Q38. हड़प्पा शहर धोलावीरा के बारे में निम्नलिखित में से कौन सा/से कथन सही है/हैं?
a) कई हड़प्पा स्थलों के विपरीत, दीवार वाले मध्य शहर और निचले शहर को मिट्टी की ईंटों के बजाय बलुआ पत्थर या चूना पत्थर से बनाया गया था।
b) अद्वितीय डिज़ाइन किए गए नौ द्वार और कब्र-स्तूप (बौद्ध स्तूपों जैसी गोलार्द्ध संरचनाएं) की विशेषता वाले अंत्येष्टि वास्तुकला धोलावीरा स्थल की अनूठी विशेषताएं हैं।
c) वर्तमान में, यह उत्तर प्रदेश, भारत में स्थित है।
(a) केवल 2
(b) केवल 1
(c) केवल 3
(d) केवल 1 और 2
Ans.(d)

Q39. मौलिक अधिकारों के संबंध में निम्नलिखित में से कौन सा कथन सही है?
I. अनुच्छेद 30 उपाधियों के उन्मूलन से संबंधित है।
II. अनुच्छेद 22 कारखानों में बच्चों के रोजगार के निषेध से संबंधित है।
(a) केवल I
(b) केवल II
(c) I और II दोनों
(d) न तो I और न ही II
Ans.(d)

Q40. किसने अपनी पुस्तक *Taiwan Travelogue* के लिए इंटरनेशनल बुकर प्राइज 2026 जीता है?
(a) लिन किंग (Lin King)
(b) नताशा ब्राउन (Natasha Brown)
(c) यांग शुआंग-ज़ी (Yáng Shuāng-zǐ)
(d) सोफी ह्यूजेस (Sophie Hughes)
Ans.(c)

Q41. मॉन्ट्रियल प्रोटोकॉल में किगाली संशोधन के संबंध में निम्नलिखित कथनों पर विचार करें:
1. किगाली संशोधन पर 2016 में हस्ताक्षर किए गए थे।
2. किगाली संशोधन 2019 में प्रभावी हुआ।
3. संशोधन ने हाइड्रोफ्लोरोकार्बन (HFCs) को मॉन्ट्रियल प्रोटोकॉल के तहत विनियमित रसायनों की सूची में शामिल किया।
ऊपर दिए गए कथनों में से कौन सा/से सही है/हैं?

(a) केवल 1 और 2
(b) केवल 2 और 3
(c) केवल 1 और 3
(d) 1, 2 और 3
Ans.(d)

Q42. निम्नलिखित कथनों को पढ़ें:
कथन I: छठी पंचवर्षीय योजना का उद्देश्य विभिन्न योजनाओं के माध्यम से आय वृद्धि और प्रौद्योगिकी का आधुनिकीकरण करना था।
कथन II: तीसरी पंचवर्षीय योजना युद्धों, रुपये के अवमूल्यन और खाद्य संकट जैसे विभिन्न कारकों के कारण विफल हो गई।
उपरोक्त कथनों में से कौन सा/से सही है/हैं?
(a) दोनों कथन I और II गलत हैं
(b) कथन I सही है, कथन II गलत है
(c) कथन I गलत है, कथन II सही है
(d) दोनों कथन I और II सही हैं
Ans.(d)

Q43. एशियाई U-19 और U-23 मुक्केबाजी चैंपियनशिप 2026 के संबंध में निम्नलिखित में से कौन सा/से कथन सही है/हैं?
1. भारत 29 पदकों के साथ समग्र पदक तालिका में तीसरे स्थान पर रहा।
2. उद्घाटन संयुक्त चैंपियनशिप 3–16 जुलाई 2026 तक जकार्ता, इंडोनेशिया में आयोजित की गई थी।
3. भारत ने 5 स्वर्ण पदक जीते, जिसमें महिलाओं के कार्यक्रमों में तीन और पुरुषों के कार्यक्रमों में दो पदक शामिल हैं।
4. उज्बेकिस्तान 21 स्वर्ण पदकों सहित 33 पदकों के साथ पदक तालिका में शीर्ष पर रहा।
(a) केवल 1 और 2
(b) केवल 2 और 3
(c) केवल 1, 3 और 4
(d) 1, 2, 3 और 4
Ans.(d)

Q44. सरकार द्वारा ऋण और अपनी संपत्ति की बिक्री से प्राप्त धन के संबंध में निम्नलिखित में से कौन सा कथन सही है?
(a) ऋण देयता उत्पन्न करते हैं लेकिन संपत्ति की बिक्री नहीं
(b) संपत्ति की बिक्री देयता उत्पन्न करती है लेकिन ऋण नहीं
(c) ऋण राजस्व प्राप्तियों का हिस्सा हैं और संपत्तियों की बिक्री पूंजीगत प्राप्तियों का हिस्सा है
(d) ऋण और संपत्ति की बिक्री दोनों सरकार की कुल वित्तीय संपत्ति को कम या ज्यादा नहीं करते हैं
Ans.(a)

Q45. भारतीय वायु सेना को जून 2026 में किस स्वदेशी हवाई प्रारंभिक चेतावनी और नियंत्रण (AEW&C) प्रणाली के लिए अंतिम परिचालन मंजूरी (FOC) मिली?
(a) अस्त्र
(b) आकाश
(c) नेत्र
(d) अरुध्र
Ans.(c)

Q46. 2026 ईस्पोर्ट्स वर्ल्ड कप में भाग लेने वाले पहले भारतीय ग्रैंडमास्टर कौन बने हैं?
(a) प्रथमेश तिवारी
(b) मुकुंद शर्मा
(c) अरविंद चिदंबरम
(d) अभिनव मेहता
Ans.(c)

Q47. भारत और एशियाई खेलों के संबंध में निम्नलिखित कथनों पर विचार कीजिए:
1. भारत तीन बार एशियाई खेलों की मेजबानी कर चुका है।
2. भारत ने अंतिम बार 1982 में एशियाई खेलों की मेजबानी की थी।
3. भारत ने एथलेटिक्स में अपना पहला स्वर्ण पदक 1962 के एशियाई खेलों में जीता था।
ऊपर दिए गए कथनों में से कौन-सा/से सही है/हैं?
(a) केवल 1 और 2
(b) केवल 2
(c) केवल 1 और 3
(d) 1, 2 और 3
Ans.(b)

Q48. भारतीय संविधान के अनुच्छेद 253 के संबंध में निम्नलिखित में से कौन सा कथन सही है? I. यह संविधान के भाग XI में पाया जाता है। II. यह अंतरराष्ट्रीय समझौतों को प्रभावी करने के लिए विधान से संबंधित है।
(a) केवल I
(b) केवल II
(c) I और II दोनों
(d) न तो I और न ही II
Ans.(c)

Q49. निम्नलिखित को कालानुक्रमिक क्रम (सबसे पहले से नवीनतम) में व्यवस्थित करें:
1. अंतर-राज्य परिषद
2. 73वां संवैधानिक संशोधन
3. GST परिषद
(a) 1 2 3
(b) 2 3 1
(c) 3 2 1
(d) 3 1 2
Ans.(a)

Q50. ताजमहल का निर्माण किस वर्ष शुरू हुआ था?
(a) 1526
(b) 1632
(c) 1658
(d) 1707
Ans.(b)

Q51. एक सम वर्गीय पिरामिड का आधार 10 सेमी भुजा का है। विकर्ण (फलक विकर्ण) के अनुदिश इसकी तिर्यक ऊंचाई 13 सेमी है। पिरामिड की लंबवत ऊंचाई ज्ञात कीजिए।
(a) 9.5 सेमी
(b) 10.9 सेमी
(c) 6.9 सेमी
(d) 11 सेमी
Ans.(b)

Q52. दो त्रिभुजों, △KLM और △XYZ पर विचार करें। यह बताया गया है कि ये दोनों त्रिभुज एक-दूसरे के सर्वांगसम हैं, जिसे △KLM ≅ △XYZ और ∠K = 65° के रूप में दर्शाया जाता है, ∠X की माप क्या है?
(a) 55°
(b) 60°
(c) 65°
(d) 115°
Ans.(c)

Q53. यदि a =
$\sqrt{5}$ और b = 5 -
$\sqrt{5}$ है, तो निम्नलिखित में से कौन सा सत्य है?
(a) a+b अपरिमेय है
(b) a-b परिमेय है
(c) a× b परिमेय है
(d) a+b परिमेय है
Ans.(d)

Q54. यदि $\left(a+\frac{1}{a}\right)$ = 4 है, तो $a^5+\frac{1}{a^5}$ का मान क्या है?
(a) 724
(b) 709
(c) 776
(d) 770
Ans.(a)

Q55. भारती ने ₹ 18,000 के साथ एक व्यवसाय शुरू किया और बाद में मंजू ₹ 36,000 के साथ उसमें शामिल हो गई। यदि एक वर्ष के अंत में लाभ को समान रूप से वितरित किया गया था, तो ज्ञात कीजिए कि मंजू कितने महीनों के बाद व्यवसाय में शामिल हुई।
(a) 10 महीने
(b) 5 महीने
(c) 8 महीने
(d) 6 महीने
Ans.(d)

Q56. एक नाव धारा के प्रतिकूल 20,000 मीटर और धारा के अनुकूल 44,000 मीटर 8 घंटे में जाती है, जबकि यह धारा के प्रतिकूल 15,000 मीटर और धारा के अनुकूल 22,000 मीटर 5 घंटे में जाती है। शांत जल में नाव की चाल है:
(a) $2\frac{1}{9}$ मीटर/सेकंड

(b) $3\frac{4}{9}$ मीटर/सेकंड
(c) $3\frac{2}{9}$ मीटर/सेकंड
(d) $2\frac{2}{9}$ मीटर/सेकंड
Ans.(d)

Q57. यशिका ₹216 में 6 सेब और 6 आम खरीदती है। जब एक सेब की कीमत में 30% की कमी होती है और एक आम की कीमत वही रहती है, तो 5 सेब और 8 आमों की कीमत ₹162 होती है। 7 सेब और 2 आमों की मूल कीमत क्या है?
(a) ₹211
(b) ₹217
(c) ₹212
(d) ₹214
Ans.(c)

Q58. एक निश्चित धनराशि 3% वार्षिक दर से 3 वर्षों के लिए साधारण ब्याज पर निवेश की जाती है। प्राप्त साधारण ब्याज, 6% वार्षिक दर से 2 वर्षों के लिए निवेश किए गए ₹6,000 पर प्राप्त चक्रवृद्धि ब्याज के आधे के बराबर है, जो वार्षिक रूप से संयोजित होता है। साधारण ब्याज पर निवेश की गई राशि ज्ञात कीजिए।
(a) ₹4,350
(b) ₹3,650
(c) ₹3,890
(d) ₹4,120
Ans.(d)

Q59. एक लम्ब वृत्तीय शंकु एक अर्धगोले पर रखा हुआ है। शंकु के आधार की त्रिज्या अर्धगोले की त्रिज्या के बराबर है। अर्धगोले का व्यास 12 सेमी है जबकि शंकु की ऊँचाई 8 सेमी है। मिश्रित वस्तु को रंगने की लागत ज्ञात कीजिए यदि π वर्ग सेमी को पेंट करने की लागत ₹ 25 है?
(a) ₹ 10,371
(b) ₹ 3,300
(c) ₹ 6,930
(d) ₹ 4,500
Ans.(b)

Q60. 4 पेन और 5 नोटबुक्स की कीमत ₹130 है। यदि एक पेन की कीमत में 25% की वृद्धि होती है और एक नोटबुक की कीमत में 20% की कमी होती है, तो 2 पेन और 4 नोटबुक्स की कीमत ₹82 हो जाती है। 1 पेन और 2 नोटबुक्स की मूल कीमत क्या है?
(a) ₹25
(b) ₹30
(c) ₹40
(d) ₹20
Ans.(c)

Q61. यदि sin A = 3/5 है, तो $\sin^4 A + \cos^4 A$ का मान ज्ञात कीजिए।
(a) 337/625
(b) 312/625
(c) 144/625
(d) 256/625
Ans.(a)

Q62. एक EdTech कंपनी अपने मासिक बजट को पांच अलग-अलग विभागों में आवंटित करती है: कंटेंट क्रिएशन (A), मार्केटिंग (B), टेक सपोर्ट (C), HR (D) और विविध (E)। पहले चार विभागों A, B, C और D के लिए धनराशि क्रमशः 4 : 7 : 9 : 12 के अनुपात में वितरित की जाती है। विविध विभाग (E) को आवंटित बजट को सटीक रूप से कंटेंट क्रिएशन (A) और HR (D) के बजट का समांतर माध्य होने के लिए डिज़ाइन किया गया है। वित्तीय ऑडिट के दौरान, यह देखा गया कि टेक सपोर्ट (C) को मार्केटिंग (B) से Rs. 12,000 अधिक प्राप्त हुए। सभी पांच विभागों को मिलाकर कंपनी का कुल मासिक बजट कितना है?
(a) Rs. 2,40,000
(b) Rs. 2,88,000
(c) Rs. 1,92,000
(d) Rs. 2,16,000
Ans.(a)

Q63. क्वांटिटेटिव एप्टीट्यूड सोशल मीडिया चैनल के लिए शॉर्टकट ट्रिक रील डिज़ाइन करते समय, एक कंटेंट डेवलपर निम्नलिखित जटिल दिखने वाली अंकगणितीय भिन्न बनाता है:
$E = \frac{0.1250 \times 0.7500 \times 0.4000}{0.2000 \times 0.5000 \times 0.1500}$
अपने दर्शकों के लिए विकल्पों को शीघ्रता से सत्यापित करने हेतु, डेवलपर सन्निकट मान ज्ञात करने के लिए मानक भिन्नात्मक समतुल्यों का उपयोग करता है। इस गणना का सही सन्निकट परिणाम क्या होना चाहिए?
(a) 5
(b) 2.5
(c) 0.25
(d) 0.5
Ans.(b)

Q64. यदि दो वृत्तों की त्रिज्याएँ 8 सेमी और 6 सेमी हैं तथा अनुप्रस्थ उभयनिष्ठ स्पर्श रेखा की लंबाई 14 सेमी है, तो दोनों केंद्रों के बीच की दूरी क्या है?
(a) $8\sqrt{3}$ सेमी
(b) $16\sqrt{3}$ सेमी
(c) $28\sqrt{2}$ सेमी
(d) $14\sqrt{2}$ सेमी
Ans.(d)

Q65. एक व्यापारी के पास 2650 kg चावल है, जिसका एक हिस्सा वह 36% लाभ पर और शेष 16% लाभ पर बेचता है। उसे कुल मिलाकर 28% का लाभ होता है। 16% लाभ पर बेची गई मात्रा ज्ञात कीजिए।
(a) 1080 kg
(b) 1040 kg
(c) 1020 kg
(d) 1060 kg
Ans.(d)

Q66. बाहरी बिंदु Q से केंद्र O वाले एक वृत्त पर दो स्पर्श रेखाएँ, PQ और QR खींची जाती हैं। यदि OQ=41 cm, ∠PQR= 60° और वृत्त की त्रिज्या 9 cm है, तो △PRQ का परिमाप ज्ञात कीजिए।
(a) 80 cm
(b) 135 cm
(c) 120 cm
(d) 95 cm

Ans.(c)

Q67. एक व्यक्ति P एक प्रोजेक्ट को 24 दिनों में पूरा कर सकता है, और व्यक्ति Q इसे 36 दिनों में पूरा कर सकता है। वे 4 दिनों तक एक साथ कार्य करते हैं, जिसके बाद Q कार्य छोड़ देता है। शेष कार्य को P कितने दिनों में पूरा करेगा? (अपना उत्तर दशमलव के दो स्थानों तक पूर्णांकित करके दें।)
(a) 17.53 दिन
(b) 17.33 दिन
(c) 17.67 दिन
(d) 17.87 दिन
Ans.(b)

Q68. r त्रिज्या वाले तीन समान ठोस गोलों को पिघलाकर एक बड़ा गोला बनाया जाता है। नए गोले की त्रिज्या है:
(a) $r\sqrt[3]{3}$
(b) $r\sqrt{3}$
(c) 3r
(d) $r\sqrt[3]{9}$
Ans.(a)

Q69. 32% की छूट और 20% और 12% की दो क्रमिक छूट के साथ विक्रय मूल्य के बीच का अंतर ₹36 है। वस्तु का अंकित मूल्य (₹ में) क्या है?
(a) ₹1,250
(b) ₹1,500
(c) ₹2,000
(d) ₹1,800
Ans.(b)

Q70. एक कार बिंदु P से बिंदु Q तक एक निश्चित चाल से चलती है। यदि इसने 10 km/h अधिक चाल से यात्रा की होती, तो इसे एक घंटा कम समय लगता। यदि इसकी चाल में 10 km/h की और वृद्धि की जाती, तो पैंतालीस मिनट की और बचत होती। P और Q के बीच की दूरी कितनी है?
(a) 360 km
(b) 420 km
(c) 540 km
(d) 600 km
Ans.(b)

Q71. ₹2,400 की एक राशि साधारण ब्याज के तहत 8 वर्षों में दोगुनी हो जाती है। एक अन्य राशि Q समान दर पर निवेश की जाती है। Q पर 5 वर्षों में अर्जित ब्याज, 3 वर्षों के लिए ₹2,400 पर अर्जित ब्याज से ₹300 अधिक है। Q क्या है?
(a) 1920 रुपये
(b) 2160 रुपये
(c) 1800 रुपये
(d) 2000 रुपये
Ans.(a)

Q72. 1600 वस्तुओं का कुल क्रय मूल्य 300 रुपये है। 10 वस्तुओं का कुल विक्रय मूल्य 3 रुपये है। लाभ प्रतिशत क्या है? (सभी वस्तुओं का क्रय मूल्य समान है। सभी वस्तुओं का विक्रय मूल्य समान है।)
(a) 65 प्रतिशत
(b) 60 प्रतिशत
(c) 40 प्रतिशत
(d) 50 प्रतिशत
Ans.(b)

Q73. एक वस्तु को 20% लाभ पर बेचा जाता है। यदि क्रय मूल्य और विक्रय मूल्य में क्रमशः Rs. 50 और Rs. 30 की वृद्धि होती है, तो लाभ 10% हो जाता है। मूल क्रय मूल्य ज्ञात कीजिए।
(a) Rs. 100
(b) Rs. 450
(c) Rs. 600
(d) Rs. 250
Ans.(d)

Q74. $sin^2 60^o + cos^2 30^o + cot^2 45^o + sec^2 60^o =?$
(a) $\frac{5}{2}$
(b) $\frac{13}{2}$
(c) $\frac{15}{2}$
(d) $\frac{7}{2}$
Ans.(b)

Q75. साक्षी और प्रिया की आयु के बीच का अंतर 37 वर्ष है। अब से पाँच वर्ष पहले, उनकी आयु का योग 95 वर्ष था। यदि साक्षी, प्रिया से बड़ी है, तो प्रिया की वर्तमान आयु (वर्षों में) ज्ञात कीजिए।
(a) 43
(b) 24
(c) 34
(d) 28
Ans.(c)

Q76. Select the correct meaning of the given idiom/phrase.
"To beard the lion in his den" means:
(a) To confront a powerful adversary boldly on their own territory
(b) To make a futile attempt at subduing a ferocious opponent
(c) To seek refuge from a superior enemy
(d) To incite unnecessary conflict with an authority
Ans.(a)

Q77. Select the sentence containing the homonym of the highlighted word:
The bank approved her loan application without delay.
(a) The children played on the grassy bank beside the river.
(b) The bank interest rates were revised this quarter.
(c) She approached the bank manager for financial advice.
(d) The bank's new branch opened in the city centre.

Ans.(a)

Q78. Choose the option that is the most appropriate conversion of the following sentence into Direct Speech.
The engineer pointed out that, by the time the backup system activated, the damage would already have been done.
(a) The engineer pointed out, "By the time the backup system activates, the damage will already have been done."
(b) The engineer said, "By the time the backup system is activated, the damage will already be done."
(c) The engineer pointed out, "By the time the backup system activated, the damage had already been done."
(d) The engineer said, "By the time the backup system was activated, the damage would have already been done."
Ans.(a)

Q79. In the following question, four spellings are given. Select the correctly spelt word.
(a) Supercilious
(b) Supercilous
(c) Supercillious
(d) Supercillous
Ans.(a)

Q80. Choose the correct one-word substitute for: 'A mild or indirect expression substituted for one that might be considered too harsh or blunt when referring to something unpleasant'.
(a) Aphorism
(b) Hyperbole
(c) Euphemism
(d) Epithet
Ans.(c)

Directions (81-85): Read the passage and answer the questions:
In contemporary professional environments, workplace stress has emerged as a pervasive and insidious phenomenon, often undermining both organizational efficiency and employee well-being. Far from being a mere by product of demanding schedules, chronic occupational stress is frequently rooted in deeper systemic issues such as unrealistic expectations, inadequate support structures, and a pervasive culture of constant connectivity. The relentless pursuit of productivity, amplified by technological advancements that blur the boundaries between personal and professional spheres, has exacerbated employees' sense of perpetual obligation. Left unchecked, prolonged exposure to high-stress environments can precipitate a range of deleterious outcomes, including burnout, diminished cognitive functioning, and even serious physical health conditions like hypertension and cardiovascular disease. Organizations that fail to recognize and address the underlying causes of stress not only risk elevated turnover rates but also compromise innovation, morale, and overall competitiveness. Counteracting workplace stress demands a multi-faceted approach that transcends superficial interventions such as temporary wellness programs or occasional mindfulness workshops. Instead, it requires a fundamental re-evaluation of work design, leadership styles, and organizational priorities. Encouraging open dialogue about mental health, instituting flexible work arrangements, and fostering a culture that genuinely values work-life balance are pivotal steps toward cultivating a more sustainable and humane professional landscape.

Q81. Which of the following is the correct tense used in the sentence: "Left unchecked, prolonged exposure to high-stress environments can precipitate a range of deleterious outcomes...?"
(a) Past Perfect
(b) Present Simple
(c) Future Perfect
(d) Present Conditional
Ans.(b)

Q82. Identify the grammatical function of the phrase "Far from being a mere by product of demanding schedules" in the first paragraph.
(a) It is the main subject of the sentence.
(b) It is an introductory phrase modifying the main clause.
(c) It is a dependent clause providing a condition.
(d) It is a direct object of the verb.
Ans.(b)

Q83. What is the meaning of the word "insidious" as used in the passage?
(a) Open and obvious
(b) Harmless and fleeting
(c) Gradually harmful and subtle
(d) Quickly destructive and visible
Ans.(c)

Q84. The word "deleterious" most nearly means:
(a) Advantageous
(b) Harmful
(c) Temporary
(d) Curious
Ans.(b)

Q85. According to the passage, what is a key failure of organizations when addressing workplace stress?
(a) They overly emphasize work-life balance.
(b) They rely on short-term or surface-level solutions.
(c) They provide excessive flexibility, causing laziness.
(d) They hire too many inexperienced employees.
Ans.(b)

Q86. From the alternatives given below, select the correct passive voice of the following sentence.
The English teacher was instructing his trainees that they should write the sentences clearly on the notebook.
(a) His trainees were instructed by the English teacher that the sentences should be written clearly on the notebook by them.
(b) His trainees were being instructed by the English teacher that the sentences be written clearly on the notebook by them.
(c) His trainees were being instructed by the English teacher that the sentences should be written clearly on the notebook by them.
(d) His trainees are being instructed by the English teacher that the sentences would be written clearly on the notebook by them.
Ans.(c)

Q87. Select the correct option:
The principal investigator insisted ___ conducting a peer-reviewed replication prior to dissemination.
(a) at
(b) with
(c) on
(d) for
Ans.(c)

Q88. Select the most appropriate antonym of the given word. Incipient
(a) Embryonic
(b) Rudimentary
(c) Germinal
(d) Mature
Ans.(d)

Q89. Select the option that expresses the given sentence in active voice.
The vaccine is said to have been developed by a team of Indian researchers long before the pandemic began.
(a) People say that a team of Indian researchers develops the vaccine long before the pandemic began.
(b) People say that a team of Indian researchers had developed the vaccine long before the pandemic began.
(c) It says that a team of Indian researchers has been developing the vaccine long before the pandemic began.
(d) People said that a team of Indian researchers have developed the vaccine long before the pandemic began.
Ans.(b)

Q90. In the following question, four spellings are given. Select the correctly spelt word.
(a) Logorrhhea
(b) Logorrhoa
(c) Logorrhea
(d) Logorrrhea
Ans.(c)

Q91. Find the part of the sentence that contains an error:
The speed with which the markets collapsed (1)/ caught not only the regulators but also the investors (2)/ off guard who had been predicting (3)/ a period of sustained growth. (4)
(a) (1)
(b) (2)
(c) (3)
(d) (4)
Ans.(c)

Q92. Choose the correct phrasal verb:
The organising committee decided to _____ the annual conference due to unforeseen circumstances.
(a) put off
(b) put on
(c) put up
(d) put by

Ans.(a)

Q93. Choose the correct indirect narration of the following statement from the given alternatives:
Sairam said, "She has to come to Delhi to me within the next couple of hours to take help to solve the problem she mentioned."
(a) Sairam said that she had to come to Delhi to her within the following couple of hours to take help to solve the problem she had mentioned.
(b) Sairam said that she had to go to Delhi to him within the next couple of hours to bring help to solve the problem she had mentioned
(c) Sairam said that she has to go to Delhi to him within the next couple of hours to take help to solve the problem she mentioned.
(d) Sairam said that she had to go to Delhi to him within the following couple of hours to take help to solve the problem she had mentioned.
Ans.(d)

Q94. In the following question, four spellings are given. Select the correctly spelt word.
(a) Equanimety
(b) Equanimnity
(c) Equaniminity
(d) Equanimity
Ans.(d)

Q95. Select the most appropriate synonym of the word given below.
Excoriate
(a) Praise
(b) Condemn
(c) Encourage
(d) Appreciate
Ans.(b)

Q96. The given sentence contains an error. Identify the error and select the option that rectifies the error.
By the time we arrived, the film has already started.
(a) By the time we have arrived, the film had already started.
(b) By the time we arrived, the film had already started.
(c) By the time we arrived, the film have already started.
(d) By the time we will arrive, the film has already started.
Ans.(b)

Q97. Directions: Select the option that expresses the given sentence in PASSIVE VOICE.
Who vandalised the marble plaques that adorn the memorial's eastern colonnade?
(a) Who were the marble plaques that adorn the memorial's eastern colonnade vandalised by?
(b) By whom the marble plaques that adorn the memorial's eastern colonnade were vandalised?
(c) By whom were the marble plaques that adorn the memorial's eastern colonnade vandalised?
(d) Whom were the marble plaques that adorn the memorial's eastern colonnade vandalised by?
Ans.(c)

Q98. Find the part of the sentence that contains an error:
The merger was announced so abruptly (1)/ that it shocked not only the board members (2)/ but also to the investors (3)/ who had been expecting a gradual transition. (4)/
(a) (1)
(b) (2)
(c) (3)
(d) (4)
Ans.(c)

Q99. Select the most appropriate antonym of the given word: Impecunious
(a) Destitute
(b) Opulent
(c) Bankrupt
(d) Penurious
Ans.(b)

Q100. Select the correct meaning of the idiom used in the given sentence.
Despite the challenges, Priya managed to keep her head above water.
(a) To remain calm in a stressful situation
(b) To avoid asking for help
(c) To barely manage to survive or cope
(d) To keep quiet during arguments
Ans.(c)