SSC CPO

Tier-1 Exam Day Based Paper 2

Memory Based Question Paper

(Hindi Medium)

Held On: 25 Nov 2026

100 Questions | 200 Marks | With Answer Key

Practice More Mock Tests & Previous Year Papers

Download the Adda247 App now

GET IT ON Google Play

Test Prime By Adda247

ALL EXAMS, ONE SUBSCRIPTION

Test. Analyze. Improve. Repeat.

Don't just prepare. Perform.

Test Prime – built only for mock tests.



1,50,000+ Mock Tests

25,000+ Previous Year Papers

800+ Exam Covered

500% Refund on Selection

5 lakh+ Free Quizzes

Daily Free PDFs

Top Alerts Stay Updated

WHY TEST PRIME?

- Multilingual
- Detailed Solution
- Strong and Weak Areas
- All India Rankings

- Safe & Reliable
- Trusted by Lakhs of Aspirants
- Your Success, Our Mission

DOWNLOAD TEST PRIME

Your Success Partner!

GET IT ON Google Play

Download on the App Store

Test Prime

SUCCESS GALLERY!

MEET THE ACHIEVERS


Shreya, SBI PO


Sahil, SBI PO


Srijita, SBI PO


Vikram, IBPS PO


Neeti, IBPS PO


Arya, IBPS PO


Hasan, SSC CGL


Palak, SSC CGL


Priti, UP TGT


Aniket, Bihar Stet


Shaurya, NTPC


Sarita, CTET


Gourav, NTPC


Sanni, NTPC


Abhishek, CTET


Sapna, IBPS Clerk

THEY DID IT. YOU CAN TOO

READ THEIR STORIES !

SSC CPO Tier-1 Exam Day Based Paper 2 (Held On 25 Nov 2026) – Hindi

कुल प्रश्न: 100 **अधिकतम अंक:** 200 **उत्तर कुंजी सहित**

सामान्य बुद्धि एवं तर्कशक्ति (General Intelligence & Reasoning) Q1–Q25

1. कथन:
I. राज्य सरकार ने राज्य में स्थापित होने वाले नए उद्योगों के लिए विशेष कर पैकेज की घोषणा की है।
II. पिछले साल राज्य सरकार ने राज्य में सभी औद्योगिक गतिविधियों के लिए करों में बढ़ोतरी की थी।
नीचे प्रत्येक प्रश्न में दो कथन I. और II. दिए गए हैं। ये कथन या तो स्वतंत्र कारण हो सकते हैं या स्वतंत्र कारणों या सामान्य कारण के प्रभाव हो सकते हैं। इनमें से एक कथन दूसरे कथन का प्रभाव हो सकता है। दोनों कथनों को पढ़ें और निर्णय लें कि निम्नलिखित में से कौन सा उत्तर विकल्प इन दोनों कथनों के बीच संबंध को सही ढंग से दर्शाता है।
अपने उत्तर अंकित करें

(a) यदि कथन I. कारण है और कथन II. इसका प्रभाव है।
(b) यदि कथन II. कारण है और कथन I. इसका प्रभाव है।
(c) यदि कथन I. और II. दोनों स्वतंत्र कारण हैं।
(d) यदि कथन I. और II. दोनों स्वतंत्र कारणों के प्रभाव हैं।

2. इस प्रश्न में, एक कथन के बाद I. और II. क्रमांकित दो अनुमान दिए गए हैं। कथन के आधार पर, आपको यह तय करना है कि कथन से कौन सा अनुमान निकाला जा सकता है।
(अनुमान वह होता है जो सीधे तौर पर नहीं कहा जाता है लेकिन कथन में दिए गए तथ्यों/जानकारी से निकाला जा सकता है)
कथन: पाठ्यक्रम में प्रवेश के लिए पात्रता 10वीं कक्षा की बोर्ड परीक्षा में न्यूनतम 80% अंक है। हालांकि, इस वर्ष 10वीं कक्षा की बोर्ड परीक्षा देने वाले छात्र भी आवेदन कर सकते हैं।
अनुमान:
I. कोई भी 11वीं कक्षा का छात्र पाठ्यक्रम के लिए आवेदन नहीं कर सकता।
II. 10वीं कक्षा की परीक्षा देने वाले छात्रों को प्रवेश तभी मिलेगा जब वे अपनी परीक्षा में 80% या उससे अधिक अंक प्राप्त करेंगे।

(a) न तो (I) और न ही (II) का अनुमान लगाया जा सकता है।
(b) केवल (II) का अनुमान लगाया जा सकता है।
(c) (I) और (II) दोनों का अनुमान लगाया जा सकता है।
(d) केवल (I) का अनुमान लगाया जा सकता है।

3. दिए गए कथन और निम्नलिखित पूर्वधारणाओं को पढ़ें और तय करें कि कौन सी पूर्वधारणा कथन में अंतर्निहित है।
कथन: सरकार ने पसुवुल्लंका में गोदावरी में हुई नाव दुर्घटना में मारे गए लोगों के परिवार के सदस्यों को ₹ 5 लाख का मुआवजा देने का फैसला किया।
पूर्वधारणाएं:
I. सरकारी खजाने में मुआवजे के खर्च को पूरा करने के लिए पर्याप्त धनराशि है।
II. सरकार भविष्य में उस क्षेत्र में नाव दुर्घटनाओं की घटनाओं को कम करने का प्रयास कर सकती है।

(a) केवल पूर्वधारणा I. अंतर्निहित है।
(b) केवल पूर्वधारणा II. अंतर्निहित है।
(c) या तो पूर्वधारणा I. या II. अंतर्निहित है।
(d) न तो पूर्वधारणा I. और न ही II. अंतर्निहित है।

4. प्रश्न में, दिए गए कथनों को सत्य मानते हुए, ज्ञात करें कि दिए गए निष्कर्षों में से कौन सा/से निश्चित रूप से सत्य है/हैं, और फिर उसके अनुसार अपना उत्तर दें।
कथन: $L \geq M > N = O < P \leq Q = R$
निष्कर्ष:
I. $L > O$
II. $N < R$
III. $M > P$

(a) केवल निष्कर्ष I. सत्य है।
(b) केवल निष्कर्ष I. और II. सत्य हैं।
(c) केवल निष्कर्ष II. और III. सत्य हैं।
(d) सभी निष्कर्ष I., II., III. सत्य हैं।

5. भावेश बिंदु A से चलना शुरू करता है और पूर्व की ओर 19 किमी ड्राइव करता है। फिर वह बाएं मुड़ता है, 16 किमी ड्राइव करता है, बाएं मुड़ता है और 23 किमी ड्राइव करता है। फिर वह बाएं मुड़ता है और 18 किमी ड्राइव करता है। वह अंतिम बार बाएं मुड़ता है, 4 किमी ड्राइव करता है और बिंदु P पर रुक जाता है। बिंदु A पर फिर से पहुंचने के लिए उसे कितनी दूर (न्यूनतम दूरी) और किस दिशा में ड्राइव करना चाहिए? (जब तक निर्दिष्ट न किया जाए, सभी मोड़ केवल 90-डिग्री के मोड़ हैं।)

(a) उत्तर की ओर 2 किमी
(b) दक्षिण की ओर 2 किमी
(c) दक्षिण की ओर 3 किमी
(d) उत्तर की ओर 3 किमी

6. एक निश्चित कूट भाषा में,
A @ B का अर्थ है 'A, B की माता है',
A × B का अर्थ है 'A, B की पत्नी है',
A + B का अर्थ है 'A, B का भाई है' और
A ÷ B का अर्थ है 'A, B का पिता है'।
यदि 'S ÷ D + R @ Y × H' है, तो S का H से क्या संबंध है?

(a) पत्नी की माता के पिता
(b) पत्नी के पिता
(c) पत्नी का भाई
(d) पत्नी की माता का भाई

7. अंग्रेजी वर्णमाला के क्रम के आधार पर FXHF एक निश्चित तरीके से ATED से संबंधित है। उसी प्रकार, VPBB, QLYZ से संबंधित है। समान तर्क का अनुसरण करते हुए, LHVX निम्नलिखित में से किससे संबंधित है?

(a) HETU (b) FDRV (c) GDSV (d) FCSW

8. एक निश्चित कूट भाषा में, 'zebra peak blue' को 'sr dt tx' के रूप में कूटबद्ध किया जाता है और 'bee zebra chest' को 'dt bm qb' के रूप में कूटबद्ध किया जाता है। दी गई भाषा में 'zebra' को किस प्रकार कूटबद्ध किया गया है?

(a) sr (b) bm (c) tx (d) dt

9. शब्द VENTURE के प्रत्येक स्वर को अंग्रेजी वर्णमाला क्रम में उसके ठीक पहले आने वाले अक्षर से बदल दिया जाता है और प्रत्येक व्यंजन को अंग्रेजी वर्णमाला क्रम में उसके बाद आने वाले दूसरे अक्षर से बदल दिया जाता है। इस प्रकार बने अक्षरों के समूह में कितने अक्षर ठीक दो बार आएंगे?

(a) तीन (b) दो (c) एक (d) शून्य

10. निम्नलिखित आकृति में कितने त्रिभुज हैं?

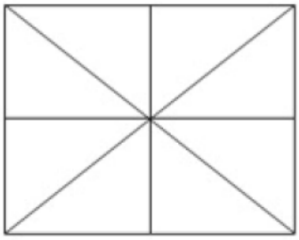

(a) 10 (b) 16 (c) 8 (d) 12

11. अंग्रेजी वर्णमाला क्रम के आधार पर, निम्नलिखित चार अक्षर-समूह युग्मों में से तीन एक निश्चित तरीके से एक समान हैं और इस प्रकार एक समूह बनाते हैं। वह कौन-सा एक है जो उस समूह से संबंधित नहीं है?
(नोट: असंगत अक्षर-समूह व्यंजनों/स्वरों की संख्या या अक्षर-समूह में उनकी स्थिति पर आधारित नहीं है।)

(a) GJ - FI (b) KN - HU (c) PS - OR (d) OR - NQ

12. निम्नलिखित प्रश्नों में संख्याओं या प्रतीकों वाले चार विकल्प दिए गए हैं। इनमें से तीन एक विशेष पैटर्न का अनुसरण करते हैं या वर्गीकरण के एक विशिष्ट नियम के आधार पर एक ही श्रेणी के हैं। उसका चयन करें जो समूह से संबंधित नहीं है।

(a) (3, 7) (b) (19, 23) (c) (5, 11) (d) (7, 11)

13. नीचे दी गई आकृति में आयत हवाई जहाजों को दर्शाता है, वृत्त सफेद को दर्शाता है और त्रिभुज कार को दर्शाता है। प्रत्येक क्षेत्र में दी गई संख्या उस क्षेत्र में वस्तुओं की संख्या को दर्शाती है। निम्नलिखित में से कौन सा कथन सही नहीं है?
I. सफेद जो कार और हवाई जहाज दोनों हैं, उनकी संख्या 9 है।
II. उन हवाई जहाजों की संख्या जो कार नहीं हैं, 24 है।

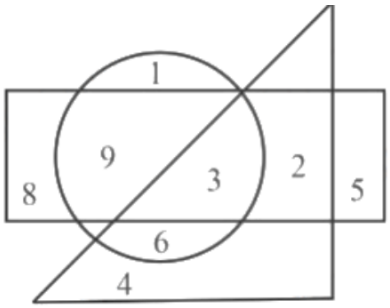

(a) केवल I (b) केवल II (c) I और II दोनों (d) न तो I और न ही II

14. यदि 'A' का अर्थ '÷' , 'B' का अर्थ 'x', 'C' का अर्थ '+' और 'D' का अर्थ '-' है, तो निम्नलिखित समीकरण में प्रश्नवाचक चिह्न '?' के स्थान पर क्या आएगा?
19 C 6 B 5 D 72 A 8 = ?

(a) 47 (b) 40 (c) 45 (d) 43

15. यदि + का अर्थ - है, - का अर्थ × है, × का अर्थ ÷ है, ÷ का अर्थ + है, तो निम्नलिखित समीकरण में प्रश्न चिह्न (?) के स्थान पर क्या आएगा?
56 - 3 ÷ 19 + 81 × 9 = ?

(a) 178 (b) 184 (c) 175 (d) 182

16. सभी 165 व्यक्ति उत्तर की ओर मुख करके एक पंक्ति में खड़े हैं। Rt दाएँ छोर से 134वें स्थान पर है जबकि Kl बाएँ छोर से 18वें स्थान पर है। Rt और Kl के बीच कितने व्यक्ति हैं?

(a) 12 (b) 13 (c) 14 (d) 16

17. आठ व्यक्ति , S, T, U, V, W, X, Y और Z, एक वृत्ताकार मेज के चारों ओर केंद्र की ओर मुख करके बैठे हैं। T, W के बाएँ से तीसरे स्थान पर बैठा है। T, V के दाएँ से तीसरे स्थान पर बैठा है। X, U और V का निकटतम पड़ोसी है। Z, S के बाएँ से दूसरे स्थान पर बैठा है। X के बाएँ से गिने जाने पर X और W के बीच कितने व्यक्ति बैठे हैं?

(a) तीन (b) एक (c) दो (d) चार

18. सात बॉक्स B, C, D, E, Q, R और S एक के ऊपर एक रखे गए हैं, लेकिन जरूरी नहीं कि इसी क्रम में हों। E के ऊपर कोई बॉक्स नहीं रखा गया है। E और Q के बीच केवल B रखा गया है। C के नीचे केवल R रखा गया है। Q और D के बीच केवल एक बॉक्स रखा गया है। S और R के बीच कितने बॉक्स रखे गए हैं?

(a) तीन (b) एक (c) दो (d) चार

19. उस युग्म का चयन करें जो उसी पैटर्न का अनुसरण करता है जिसका अनुसरण नीचे दिए गए दो युग्मों द्वारा किया जाता है। दोनों युग्म एक ही पैटर्न का अनुसरण करते हैं।
UQL : QMH
CAT : YWP

(a) NOP : OPQ (b) ZBM : VXI (c) UTW : RQT (d) LJH : NLJ

20. एक पासे के छह फलकों पर 1 से 6 तक की संख्याएँ अंकित हैं। एक ही पासे की दो अलग-अलग स्थितियाँ नीचे दर्शाई गई हैं। '6' दर्शाने वाले फलक के विपरीत फलक पर कौन सी संख्या है?

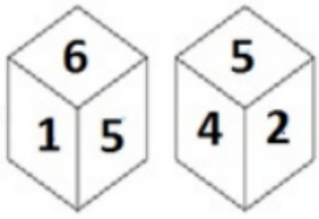

(a) 1 (b) 2 (c) 4 (d) 5

21. **BRAVE** के लिए कोड ज्ञात करें

आव्यूह-I

	0	1	2	3	4
0	M	A	T	H	S
1	S	C	I	E	N
2	C	E	S	T	R
3	B	O	O	K	S
4	L	E	A	R	N

आव्यूह-II

	5	6	7	8	9
5	P	Q	R	S	T
6	U	V	W	X	Y
7	Z	A	B	C	D
8	E	F	G	H	I

दो आव्यूह दिए गए हैं: आव्यूह I पंक्ति और स्तंभ संख्या 0 से 4 का उपयोग करता है। आव्यूह II पंक्ति और स्तंभ संख्या 5 से 9 का उपयोग करता है। एक अक्षर को पंक्ति संख्या, स्तंभ संख्या द्वारा दर्शाया जाता है (उदाहरण के लिए, 23 का अर्थ है आव्यूह I में पंक्ति 2, स्तंभ 3; 66 का अर्थ है आव्यूह II में पंक्ति 6, स्तंभ 6)। आव्यूहों से, **BRAVE** के प्रत्येक अक्षर के लिए क्रम में पंक्ति -स्तंभ कोड ज्ञात करें, और दिए गए विकल्पों में से सही विकल्प का चयन करें।

(a) 30,57,42,43,44 (b) 30,57,01,66,85 (c) 30,57,12,43,85 (d) 40,41,42,44,85

22. अंग्रेजी वर्णमाला क्रम के आधार पर दी गई श्रृंखला में प्रश्नवाचक चिह्न (?) के स्थान पर क्या आना चाहिए?
ZEK UZF PUA KPV ?

(a) DKR (b) PFY (c) FKQ (d) EGP

23. दी गई श्रृंखला में '?' के स्थान पर क्या आना चाहिए?
5, 9, 20, 40, 67, 103, ?

(a) 146 (b) 148 (c) 184 (d) 164

24. दिए गए कथनों और निष्कर्षों को ध्यानपूर्वक पढ़ें। यह मानते हुए कि कथनों में दी गई जानकारी सत्य है, भले ही वह सामान्यतः ज्ञात तथ्यों से भिन्न प्रतीत होती हो, यह तय करें कि दिए गए निष्कर्षों में से कौन सा/से कथनों का तार्किक रूप से अनुसरण करता है/करते हैं।

कथन:
कुछ मछलियाँ घड़ियाँ हैं।
कोई भी घड़ी ऑक्टोपस नहीं है।

निष्कर्ष:
(I) कुछ मछलियाँ ऑक्टोपस हैं।
(II) कुछ घड़ियाँ मछलियाँ हैं।

(a) न तो निष्कर्ष (I) और न ही (II) अनुसरण करता है
(b) केवल निष्कर्ष (II) अनुसरण करता है
(c) केवल निष्कर्ष (I) अनुसरण करता है
(d) निष्कर्ष (I) और (II) दोनों अनुसरण करते हैं

25. जब प्रश्न आरेख को इसके सामने रखा जाता है, तो छायांकित भाग की ओर बनने वाला सही प्रतिबिम्ब कौन सा होगा?



(a) 
(b) 
(c) 
(d) 

सामान्य ज्ञान एवं सामान्य जागरूकता (General Knowledge & General Awareness) Q26–Q50

26. झारखंड और छत्तीसगढ़ राज्य _____ भौतिक भंडारों से समृद्ध हैं।
(a) सोना (b) सिलिकॉन (c) पेट्रोलियम (d) कोयला

27. निम्नलिखित में से कौन सा महाजनपद अपनी राजधानी राजगृह के लिए जाना जाता था?
(a) मगध (b) कोशल (c) वत्स (d) अवंती

28. भारत में पहली नियमित जनगणना किस वर्ष आयोजित की गई थी?
(a) 1881 (b) 1911 (c) 1921 (d) 1931

29. कथन A और B को ध्यानपूर्वक पढ़ें:
कथन A: अंतर्देशीय जलमार्ग और समुद्री मार्गों का उपयोग शुरुआती दिनों से ही परिवहन के लिए किया जाता रहा है।
कथन B: लंबी दूरी तक भारी और अधिक जगह घेरने वाले माल को ले जाने के लिए जलमार्ग सबसे सस्ता साधन है।
सही विकल्प चुनें:
(a) A और B दोनों गलत हैं (b) A सही है लेकिन B गलत है
(c) A गलत है लेकिन B सही है (d) A और B दोनों सही हैं

30. अप्रैल 2026 में खबरों में रही भारतजेन पहल मुख्य रूप से किस क्षेत्र से संबंधित है?
(a) अंतरिक्ष अनुसंधान (b) आर्टिफिशियल इंटेलिजेंस
(c) जैव प्रौद्योगिकी (d) नवीकरणीय ऊर्जा

31. ग्लोबल पीस इंडेक्स, 2026 के अनुसार, रिपोर्ट में कितने देशों और क्षेत्रों का आकलन किया गया था?
(a) 150 (b) 163 (c) 175 (d) 195

32. मई 2026 में लॉन्च की गई पुस्तक 'अपनापन: नरेंद्र मोदी संग मेरे अनुभव' के लेखक कौन हैं?
(a) एम. वेंकैकैया नायडू (b) एच. डी. देवेगौड़ा
(c) नरेंद्र मोदी (d) शिवराज सिंह चौहान

33. भारत की 2011 की जनगणना के अनुसार, भारत के किस केंद्र शासित प्रदेश की जनसंख्या वृद्धि दर सबसे अधिक है?
(a) पुडुचेरी (b) चंडीगढ़ (c) लक्षद्वीप (d) दादरा और नगर हवेली

34. ठुमरी घराने निम्नलिखित में से किस शहर में स्थित हैं?
(a) ग्वालियर और भोपाल (b) बनारस और लखनऊ (c) आगरा और किराना (d) पटियाला और तलवंडी

35. भारतीय संविधान की सातवीं अनुसूची किससे संबंधित है?
(a) पंचायतें (b) शक्तियों का विभाजन (सूचियाँ)
(c) मौलिक कर्तव्य (d) आपातकालीन प्रावधान

36. जलवायु परिवर्तन प्रदर्शन सूचकांक (CCPI) 2026 में भारत का स्थान क्या है?
(a) 33वां (b) 13वां (c) 23वां (d) 10वां

37. मेची नदी किस नदी की सहायक नदी है?
(a) हुगली (b) ब्रह्मपुत्र (c) महानंदा (d) गंगा

38. "डिजिटल इंडिया नेक्स्टजेन प्रोग्राम" के बारे में निम्नलिखित कथनों पर विचार कीजिए:
1. यह सार्वजनिक सेवा वितरण में AI-आधारित शासन उपकरणों को एकीकृत करने पर केंद्रित है।
2. इसमें नागरिक डिजिटल साक्षरता मिशन शामिल है।
3. इसे इलेक्ट्रॉनिक्स और सूचना प्रौद्योगिकी मंत्रालय द्वारा कार्यान्वित किया जाता है।
ऊपर दिए गए कथनों में से कौन सा/से सही है/हैं?
(a) केवल 1 और 3 (b) 1, 2 और 3 (c) केवल 2 (d) केवल 1 और 2

39. भारत के योजना आयोग का गठन _____ को किया गया था।
(a) 1 जनवरी 2015 (b) 2 अक्टूबर 1950 (c) 26 जनवरी 1950 (d) 15 मार्च 1950

40. पीएम-पोषण योजना, जिसे पहले मिड-डे मील योजना के रूप में जाना जाता था, किस मंत्रालय द्वारा केंद्र प्रायोजित योजना के रूप में कार्यान्वित की जाती है?

(a) स्वास्थ्य और परिवार कल्याण मंत्रालय
(b) महिला एवं बाल विकास मंत्रालय
(c) शिक्षा मंत्रालय
(d) सामाजिक न्याय और अधिकारिता मंत्रालय

41. निम्नलिखित में से किस अनुच्छेद के अंतर्गत समानता का अधिकार उल्लिखित है?

(a) अनुच्छेद 14-18 (b) अनुच्छेद 1-4 (c) अनुच्छेद 10-12 (d) अनुच्छेद 19-22

42. तंजौर में राजराजेश्वर, जिसे लोकप्रिय रूप से बृहदेश्वर मंदिर के रूप में जाना जाता है, का निर्माण किससे संबंधित है?

(a) राजेंद्र प्रथम (b) राजराज प्रथम (c) कुलोत्तुंग प्रथम (d) आदित्य प्रथम

43. पहली एशियाई कबड्डी चैंपियनशिप कब आयोजित हुई थी?

(a) 1970 (b) 1985 (c) 1980 (d) 1975

44. कुतुब मीनार को किसने पूरा किया?

(a) कुतुबुद्दीन ऐबक (b) रजिया (c) इल्तुतमिश (d) अकबर

45. नई आर्थिक नीति 1991 के संदर्भ में निम्नलिखित कथनों पर विचार करें।
1. आर्थिक विकास के लिए समाजवादी नीतियों से बाज़ार-उन्मुख सुधारों की ओर स्थानांतरण।
2. भारत को वैश्विक अर्थव्यवस्था में एकीकृत किया, अंतर्राष्ट्रीय व्यापार को बढ़ावा देना।
3. स्थिर वित्तीय प्रणाली के लिए बाज़ार-उन्मुख नीतियों की शुरुआत की गई।
उपरोक्त में से कौन सा कथन सही है/हैं?

(a) केवल 1 (b) केवल 1 और 2 (c) केवल 2 और 3 (d) 1,2 और 3

46. **कथन I:** भारत की विनिवेश नीति का उद्देश्य वित्तीय संस्थानों सहित केंद्रीय सार्वजनिक क्षेत्र के उपक्रमों (CPSU) की उपस्थिति को कम करना और निजी क्षेत्र के लिए नए निवेश स्थान बनाना है।
कथन II: भारत की विनिवेश नीति का उद्देश्य विभिन्न सामाजिक क्षेत्र और विकास कार्यक्रमों को वित्तपोषित करने के लिए विनिवेश आय को जुटाना है।
उपरोक्त में से कौन सा कथन सही है?

(a) केवल कथन I सही है
(b) केवल कथन II सही है
(c) दोनों कथन सही नहीं हैं
(d) दोनों कथन सही हैं

47. समुद्री सहयोग और भारत-प्रशांत सुरक्षा के संबंध में किस पहल का उल्लेख किया गया था?

(a) SAGAR विजन (b) मिशन शक्ति (c) MAHASAGAR (d) ब्लू इंडिया मिशन

48. भव्या (BHAVYA - भारत औद्योगिक विकास योजना) योजना के संदर्भ में, निम्नलिखित कथनों पर विचार करें:
1. यह योजना प्लग-एंड-प्ले बुनियादी ढांचे के साथ एकीकृत विनिर्माण क्षेत्र बनाकर 'मेक इन इंडिया' और 'पीएम गति शक्ति ' कार्यक्रमों का समर्थन करती है।
2. यह केवल ग्रीनफील्ड औद्योगिक पार्कों के विकास का प्रावधान करती है।
3. गैर-पहाड़ी राज्यों में औद्योगिक पार्कों के लिए न्यूनतम भूमि आवश्यकता 100 एकड़ है।
4. इस योजना को कंपनी अधिनियम, 2013 के तहत निगमित विशेष प्रयोजन वाहनों (SPVs) के माध्यम से लागू किया जाएगा।
ऊपर दिए गए कथनों में से कौन से सही हैं?

(a) केवल 1, 3 और 4 (b) केवल 1 और 2 (c) केवल 2, 3 और 4 (d) 1, 2, 3 और 4

49. जुलाई 2026 में किस स्थल को यूनेस्को (UNESCO) की विश्व धरोहर सूची में शामिल किया गया, जो भारत का 45वां विश्व धरोहर स्थल बन गया?

(a) कुशीनगर (b) सारनाथ (c) नालंदा महाविहार (d) बोधगया

50. 'पेनल्टी कॉर्नर' निम्नलिखित में से किस खेल से संबंधित है?

(a) शतरंज (b) टेनिस (c) बैडमिंटन (d) हॉकी

मात्रात्मक योग्यता (Quantitative Aptitude) Q51–Q75

51. यदि x : y : z = 5 : 6 : 7 और 3x - 2y + z = 40 है, तो z का मान क्या है:

(a) 14 (b) 22 (c) 28 (d) 18

52. एक चॉकलेट बार का आकार एक त्रिभुजाकार प्रिज्म के समान है, जिसका अनुप्रस्थ काट एक समकोण त्रिभुज है जिसकी दो लंबवत भुजाएं 6 cm और 8 cm की हैं। बार में चॉकलेट का कुल आयतन 360 cm^3 है। चॉकलेट बार की लंबाई ज्ञात कीजिए।

(a) 18 cm (b) 15 cm (c) 20 cm (d) 12 cm

53. यदि $\sqrt{x} + \frac{1}{\sqrt{x}} = \sqrt{7}$, तो $x + \frac{1}{x}$ का मान क्या है?

(a) 1 (b) 2 (c) 4 (d) 5

54. 11 cm और 5 cm त्रिज्या वाले दो वृत्तों के केंद्रों के बीच की दूरी 10 cm है। दोनों वृत्तों की सीधी उभयनिष्ठ स्पर्श रेखा की लंबाई क्या है?

(a) 12 cm (b) 8 cm (c) 4 cm (d) 16 cm

55. वरुण एक लकड़ी की मेज 2 दिनों में तैयार कर सकता है, और आशीष उसी मेज को 4 दिनों में तैयार कर सकता है। यदि वे एक साथ काम करते हैं, तो वे इसी प्रकार की 123 मेजें कितने दिनों में तैयार करेंगे?

(a) 166 (b) 168 (c) 160 (d) 164

56. एक भारी कंक्रीट संरचनात्मक ब्लॉक को एक ठोस लंब ज्यामितीय प्रिज्म के आकार में ढाला गया है। इस प्रिज्म का समतल निचला आधार एक पूर्ण समषट्भुज है जिसकी एक समान भुजा की लंबाई 5 cm है। डिज़ाइन विनिर्देशों के अनुसार, प्रिज्म की कुल ऊर्ध्वाधर ऊंचाई षट्कोणीय आधार के सबसे लंबे विकर्ण की लंबाई के बिल्कुल बराबर होनी चाहिए। इस कंक्रीट प्रिज्म का कुल बाहरी पृष्ठीय क्षेत्रफल क्या है?

(a) 300 + 75√3 वर्ग cm (b) 150 + 50√3 वर्ग cm (c) 300 + 50√3 वर्ग cm (d) 250 + 75√3 वर्ग cm

57. △ABC में, ∠C = 90°, AC = 15, BC = 8 है, sec A ज्ञात कीजिए।

(a) 5/17 (b) 17/15 (c) 15/17 (d) 17/5

58. 30 सेमी व्यास वाले वृत्त के केंद्र के विपरीत दिशाओं में दो समानांतर जीवाएं खींची जाती हैं। एक जीवा की लंबाई 24 सेमी है, और दोनों जीवाओं के बीच की लंबवत दूरी 21 सेमी है। दूसरी जीवा की लंबाई ज्ञात कीजिए।

(a) 9 सेमी (b) 12 सेमी (c) 18 सेमी (d) 24 सेमी

59. एक वाहन शहर A से शहर B तक 30 किमी/घंटा की स्थिर गति से यात्रा करता है और शहर B से शहर A तक 90 किमी/घंटा की स्थिर गति से वापस आता है। पूरी यात्रा के लिए औसत चाल निर्धारित कीजिए।

(a) 35 किमी/घंटा (b) 25 किमी/घंटा (c) 45किमी/घंटा (d) 15 किमी/घंटा

60. एक तंबू एक लंब वर्गाकार पिरामिड के आकार का है जिसके आधार की भुजा 4 मीटर और ऊर्ध्वाधर ऊँचाई 3 मीटर है। तंबू का आंतरिक आयतन क्या है?

(a) 14 m^3 (b) 16 m^3 (c) 18 m^3 (d) 20 m^3

61. यदि a + b = 5 और ab = 6 है, तो $a^3 + b^3$ ज्ञात कीजिए।

(a) 35 (b) 36 (c) 40 (d) 45

62. एक रेखा बिंदुओं (1, 3) और (4, 9) से होकर गुजरती है। ढाल-अंत:खंड रूप में रेखा का समीकरण ज्ञात कीजिए।

(a) y = 5x + 2 (b) y = 3x + 1 (c) y = 7x + 2 (d) y = 2x + 1

63. धन की एक निश्चित राशि 16.67% वार्षिक दर पर निवेश की जाती है, जिसमें ब्याज वार्षिक रूप से संयोजित होता है। 3 वर्षों के लिए निवेश किए जाने के बाद, संचित राशि ₹15,000 हो जाती है। चौथे वर्ष के अंत में राशि ज्ञात कीजिए?

(a) ₹18,500 (b) ₹17,500 (c) ₹17,000 (d) ₹17,250

64. एक लोहे की गेंद का व्यास 15 cm है। इसे पिघलाकर 2.5 cm ऊंचाई का एक ठोस बेलन बनाया जाता है, बेलन के आधार का व्यास ज्ञात कीजिए।

(a) 15 cm (b) 30 cm (c) 4 cm (d) 8 cm

65. यदि cot θ + cosec θ = m और cot θ − cosec θ = n, जहाँ 0° < θ < 90° है, तो m^2n^2 किसके बराबर है:

(a) mn (b) −1 (c) 0 (d) 1

66. एक शहर एक सम षट्भुज के आकार में एक नए पार्क की योजना बना रहा है जिसकी प्रत्येक भुजा 10 मीटर है। निम्नलिखित में से कौन सा विकल्प पार्क के क्षेत्रफल के सबसे करीब है?

(a) 173.2 वर्ग मीटर (b) 259.8 वर्ग मीटर (c) 150 वर्ग मीटर (d) 600 वर्ग मीटर

67. एक दुकानदार अपने अंकित मूल्य पर 23% की छूट देने के बाद एक खिलौने पर 56 का लाभ प्राप्त करता है। यदि उसका लाभ 10% है, तो खिलौने का अंकित मूल्य है:

(a) Rs. 805 (b) Rs. 800 (c) Rs. 870 (d) Rs. 770

68. एक समचतुर्भुज में, विकर्णों का अनुपात 8:15 है। यदि समचतुर्भुज की भुजा 17 cm है, तो दोनों विकर्णों की सटीक लंबाई और क्षेत्रफल ज्ञात कीजिए।

(a) 12 cm और 26 cm, 220 cm^2 (b) 22 cm और 38 cm, 340 cm^2
(c) 16 cm और 30 cm, 240 cm^2 (d) ज्ञात नहीं किया जा सकता

69. यदि $3x = a + b + c$ है, तो $(x - a)^3 + (x - b)^3 + (x - c)^3 - 3(x - a)(x - b)(x - c)$ का मान ज्ञात कीजिए।

(a) a+b+c (b) (a-b) (b-c) (c-a) (c) 0 (d) a+b-c

70. दो वृत्तों की एक उभयनिष्ठ सीधी स्पर्श रेखा की लंबाई 25 सेमी है और उनकी उभयनिष्ठ अनुप्रस्थ स्पर्श रेखा की लंबाई 15 सेमी है। त्रिज्याओं का गुणनफल ज्ञात कीजिए।

(a) 100 (b) 80 (c) 110 (d) 120

71. एक ऑडिट से पता चलता है कि 12% और 18% रिटर्न देने वाली योजनाओं में निवेश की गई संपत्ति से औसतन 15% रिटर्न मिलता है। यदि कुल निवेश ₹6,00,000 है, तो कम रिटर्न वाली योजना में निवेश क्या है?

(a) ₹2,00,000 (b) ₹2,50,000 (c) ₹3,00,000 (d) ₹3,50,000

72. ABC, 24 सेमी भुजा वाला एक समबाहु त्रिभुज है और AD माध्यिका है। यदि G त्रिभुज ABC का केंद्रक है, तो GD की लंबाई (सेमी में) ज्ञात कीजिए।

(a) $4\sqrt{3}$ (b) $6\sqrt{2}$ (c) $3\sqrt{2}$ (d) $9\sqrt{3}$

73. ऊँचाई h_1 और h_2 वाले दो टावर अपने पादों को मिलाने वाली रेखा के एक बिंदु पर क्रमशः 30° और 60° के कोण अंतरित करते हैं। यदि टावरों के बीच की दूरी d है, तो उनकी ऊँचाइयों h_1: h_2 का अनुपात क्या है यदि बिंदु मध्यबिंदु पर है?

(a) 1:3 (b) 3:1 (c) 4:5 (d) 5:4

74. एक छत ट्रस डिजाइन में, दो बीम इस प्रकार रखे जाते हैं कि एक क्षैतिज के साथ θ कोण बनाता है और दूसरा (90° - θ) कोण बनाता है। यदि $\sin\theta = 0.6$ है, तो $\sin^2\theta + \cos^2(90° - \theta)$ का मान क्या है?

(a) 0.6 (b) 0.72 (c) 1 (d) 0.36

75. सरल कीजिए: $8 + 12 \div 4 \times 3 - 5$

(a) 12 (b) 11 (c) 5 (d) 15

अंग्रेजी भाषा (English Comprehension) Q76–Q100

76. Choose the correct indirect speech conversion of the following direct speech:
Michael said, "I am going to the store this evening."

(a) Michael said that he was going to the store that evening.
(b) Michael said that he is going to the store this evening.
(c) Michael said that he would go to the store that evening.
(d) Michael said that he went to the store this evening.

77. Identify the error in the following sentence.
"His understanding of the subject are deep and insightful."

(a) His understanding (b) of the subject
(c) are (d) deep and insightful

निर्देश (78–82):
Read the following passage carefully and answer the questions that follow.

The 2026 season offered two contrasting portraits of excellence in men's tennis. Jannik Sinner compiled a 44–3 record and won five consecutive ATP Masters 1000 titles — Indian Wells, Miami, Monte-Carlo, Madrid and Rome — a sequence no man had managed before. At Wimbledon he overcame Alexander Zverev in four sets to defend his crown and claim a fifth major; the win was also his hundredth match victory at Grand Slam level, a

milestone no Italian man had reached. Yet his year ended abruptly in October, when a knee requiring treatment ruled him out for the remainder of the calendar.

Novak Djokovic's season followed a rougher arc. At 39, he upset Sinner at the Australian Open to reach his first Grand Slam final since 2024, only to lose to Carlos Alcaraz. His single title came in Beijing, where a seventh China Open crown took him to 102 tour-level titles and extended his record of winning at least one title in 21 successive seasons. A second-round defeat at the Paris Masters ended his campaign and pushed him outside the top ten.

Between them lies an older argument. In 2024 Sinner twice tested positive for clostebol; authorities accepted that the substance had entered his system inadvertently through a physiotherapist's treatment, and a settlement with the World Anti-Doping Agency produced a three-month ban that cost him no Grand Slam. Djokovic argued publicly that the sport's anti-doping machinery lacked consistency and transparency, noting that many players sensed favouritism towards bigger names while lesser-known competitors had waited years for resolution. He accepted that Sinner had not acted deliberately, but predicted the episode would shadow the Italian's career much as his own 2022 deportation from Australia still shadows his.

78. Which of the following best expresses the central idea of the passage?

(a) Sinner's dominance in 2026 has permanently ended Djokovic's relevance in men's tennis.
(b) The passage contrasts the divergent 2026 seasons of two players while revisiting the doping dispute that links them.
(c) The passage argues that the anti-doping system in tennis should be abolished altogether.
(d) Injury was the single defining feature of the 2026 men's tennis season.

79. According to the passage, Sinner's hundredth Grand Slam match win was notable because

(a) it was achieved against Novak Djokovic.
(b) no Italian man had reached that mark before him.
(c) he completed the tournament without conceding a single set.
(d) it broke a record previously held by Alexander Zverev.

80. Djokovic's title in Beijing was significant for all of the following reasons EXCEPT that

(a) it was his seventh China Open title.
(b) it carried him to 102 tour-level titles.
(c) it extended his record of winning a title in 21 successive seasons.
(d) it restored him to a position inside the top ten.

81. The word "inadvertently", as used in the passage, most nearly means

(a) deliberately (b) unintentionally (c) repeatedly (d) secretly

82. Which of the following can best be inferred about Djokovic's position on the doping dispute?

(a) He is convinced that Sinner knowingly used a prohibited substance.
(b) His objection concerns the uneven application of the rules rather than Sinner's personal guilt.
(c) He believes Sinner's titles from that period should be withdrawn.
(d) He holds that lesser-known players deserve harsher punishment than established stars.

83. Select the most appropriate option to fill in the blank.
By the end of next month, she _____ with the company for a decade.

(a) works (b) worked
(c) will have been working (d) will be working

84. Choose the most appropriate option to change the narration (direct or indirect) of the given sentence.
She said to me, "I have taken cooking class before."
(a) She told me that she could take cooking class before.
(b) She told me that she had taken cooking class before.
(c) She told me that she was taking cooking class before.
(d) She told me that she should take the cooking class before.

85. Select the INCORRECTLY spelt word from the options given below:
(a) Pneumonia (b) Privelige (c) Inoculate (d) Correspondence

86. Select the most appropriate meaning of the given idiom.
Chew the fat
(a) To have a heated argument (b) To eat a large meal
(c) To have a relaxed, informal conversation (d) To chew on a piece of gum for a long time

87. Select the option that expresses the given sentence in active voice.
The car is being driven by a young boy.
(a) A young boy has driven the car. (b) A young boy is driving the car.
(c) A young boy was driving the car. (d) A young boy drives the car.

88. Select the option that expresses the given sentence in passive voice.
"The artist is painting the mural."
(a) The murals are being painted by the artist.
(b) The mural was being painted by the artist.
(c) The mural is painted by the artist.
(d) The mural is being painted by the artist.

89. Select the antonym of the given word. Unabated
(a) Continuous (b) Intensified (c) Steady (d) Diminished

90. Select the most appropriate synonym of "Commensurate".
(a) Disparate (b) Proportionate (c) Incommensurable (d) Anomalous

91. What does the idiom "Beat around the bush" mean?
(a) To avoid addressing the main issue (b) To avoid getting lost in the forest
(c) To speak directly and honestly (d) To be a skilled musician

92. Choose the most appropriate interpretation of the highlighted idiom in the given sentence.
The attendees were skeptical of the tall tale about the encounter with a Hollywood celebrity.
(a) Accurate account (b) Highly exaggerated or fictional story
(c) Mundane narrative (d) Coded communication

93. The following sentence has been split into four segments and given as options. Identify the segment that contains a grammatical error.
The man besides her was wearing a brown suit and hat.
(a) her was wearing (b) a brown suit (c) The man besides (d) and hat.

94. Select the most appropriate 'one word' for the expression given below.
The art of effective and persuasive speaking or writing
(a) Stampede (b) Upsurge (c) Sanguine (d) Rhetoric

95. Choose the incorrectly spelt word.
(a) Calibrate (b) Conoissuer (c) Tyranny (d) Auxiliary

96. Select the correct direct form of the given sentence.
John said that he was there to resolve that fight for them.
(a) John says, "I am here to resolve this fight for you."
(b) John said to me, "You are here to resolve this fight for you."
(c) John said, "I am here to resolve this fight for you."
(d) John said, "I was here to resolve this fight for you."

97. Select the option that expresses the given sentence in passive voice.
Open the door for your brother.
(a) Let the door be open for your brother.
(b) Let the door be opened for your brother.
(c) Let the door been opened for your brother.
(d) Let the door opened for your brother.

98. Select the option that expresses the given sentence in direct speech.
The old man advised him to always speak the truth.
(a) The old man advised, "Truth be told."
(b) "I advised you to always speak the truth," the old man said.
(c) The old man said to him, "Always speak the truth."
(d) "Truth shall always be spoken," advised the old man.

99. Select the antonym of the given word. Valorise
(a) Enhance (b) Exalt (c) Depreciate (d) Commend

100. Select the most appropriate homonym in the context of the following sentence to fill in the blank.
He was convicted of assaulting a police officer, but he got off with a _____ sentence.
(a) light: any device serving as a source of illumination
(b) light: not serious or profound
(c) light: the energy from the sun
(d) light: lightly; with few burdens

उत्तर कुंजी (Answer Key)

1. (b)	**11.** (b)	**21.** (b)	**31.** (b)	**41.** (a)	**51.** (c)	**61.** (a)	**71.** (c)	**81.** (b)	**91.** (a)
2. (b)	**12.** (c)	**22.** (c)	**32.** (d)	**42.** (b)	**52.** (b)	**62.** (d)	**72.** (a)	**82.** (b)	**92.** (b)
3. (a)	**13.** (c)	**23.** (a)	**33.** (d)	**43.** (c)	**53.** (d)	**63.** (b)	**73.** (a)	**83.** (c)	**93.** (c)
4. (b)	**14.** (b)	**24.** (b)	**34.** (b)	**44.** (c)	**54.** (b)	**64.** (b)	**74.** (b)	**84.** (b)	**94.** (d)
5. (a)	**15.** (a)	**25.** (d)	**35.** (b)	**45.** (d)	**55.** (d)	**65.** (d)	**75.** (a)	**85.** (b)	**95.** (b)
6. (a)	**16.** (b)	**26.** (d)	**36.** (c)	**46.** (d)	**56.** (a)	**66.** (b)	**76.** (a)	**86.** (c)	**96.** (c)
7. (c)	**17.** (c)	**27.** (a)	**37.** (c)	**47.** (c)	**57.** (b)	**67.** (b)	**77.** (c)	**87.** (b)	**97.** (b)
8. (d)	**18.** (c)	**28.** (a)	**38.** (b)	**48.** (a)	**58.** (c)	**68.** (c)	**78.** (b)	**88.** (d)	**98.** (c)
9. (b)	**19.** (b)	**29.** (d)	**39.** (d)	**49.** (b)	**59.** (c)	**69.** (c)	**79.** (b)	**89.** (d)	**99.** (c)
10. (b)	**20.** (c)	**30.** (b)	**40.** (c)	**50.** (d)	**60.** (b)	**70.** (a)	**80.** (d)	**90.** (b)	**100.** (b)

Test Prime By Adda247

PREVIOUS YEAR PAPERS PDF

PRACTICE MORE, SCORE HIGHER!

PDF

Free 25,000+ PDF's

High-Quality | Exam-Wise | Updated Regularly

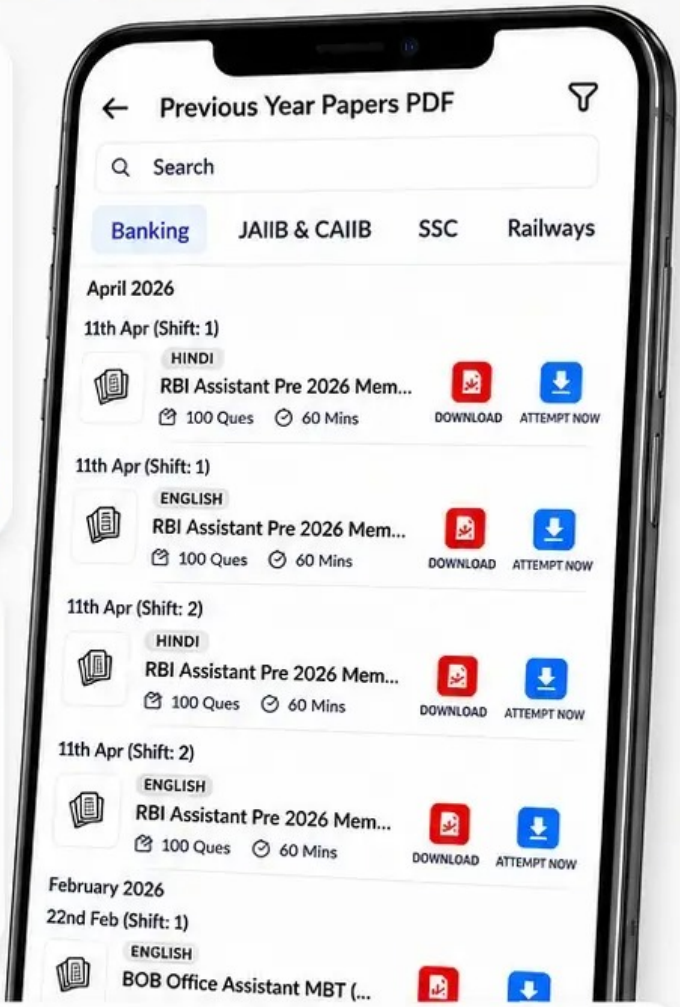

ATTEMPT AS MOCK

Turn PDFs into real exam experience.

Analyze. Improve. Succeed.

- Topic-wise & Exam-wise PDFs
- Download & Study Offline
- Attempt as Mock & Track Score
- Smart Analysis & Performance

AVAILABLE IN

Banking | SSC | Railway | Teaching | UGC | Agriculture | Nursing

Bihar | UP | Punjab | WB | Odisha | TN | AP & Telangana | Haryana

DOWNLOAD TEST PRIME

Test Prime

SUCCESS GALLERY!

MEET THE ACHIEVERS


Kunal, RRB JE


Shivam, UPSSSC AGTA


Priya, ANM


KHALILUR, LDA


Manoj , PWD


Atin, JENPAS


Shatarupa, OPSC


Arpita, JENPAS


Shital, SSC JE (Mech)


Nancy, UGC NET


Atul, SSC JE (ELCT)


Rahul, SSC JE (CIVIL)


Anand, SSC JE (ELCT)


Mohan, SSC JE (ELCT)


Saurabh, UGC NET


Ved, SSC JE (Mech)

THEY DID IT. YOU CAN TOO

READ THEIR STORIES !